Діагностувальна робота. Тварини

Запиши правильну відповідь у кружечок.

1. Організми, які споживають готові органічні речовини.

А Тварини;

Б рослини

2. Очі, ніс, вуха, язик, шкіра – це органи … тварин.

А руху;

Б дихання;

В чуття.

3. Орган руху риб.

А Плавці;

Б кінцівки;

В зябра.

4. Тварини, які живляться іншими тваринами.

А Усеїдні;

Б рослиноїдні;

В хижі.

5. Група тварин, які не мають шиї.

А Земноводні;

Б звірі(ссавці);

В птахи.

6. Тварини, які насиджують яйця.

А Земноводні;

Б плазуни;

В птахи.

LIVEWORKSHEETS

Установи відповідність.

1 Звірі (ссавці)
2 Птахи
3 Земноводні

А Мають тіло, укрите пір'ям
Б Мають тіло, укрите м'якою вологою шкірою
В Мають тіло, укрите шерстю (волоссям). Годують дитинчат молоком
Г Мають шість ніг

Познач зображення тварини, розмноження й розвиток якої відбувається у воді.

А


Б

В

Познач послідовність розвитку риб.

А Ікра → личинка → мальок → доросла риба.
Б Ікра → мальок → личинка → доросла риба.
В Ікра → личинка → пуголовок → доросла риба.

Устав пропущене в схемі розвитку комах із повним перетворенням.





Яйце → _____ → _____ → доросла комаха

LIVEWORKSHEETS