1. **Pažymėkite natūraliuosius skaičius:**

**-2 5 -2,7 -8,2 0 9 34 5 1/6 -1 4/5**

2. **Pažymėkite neigiamuosius skaičius:**

**-2 5 -2,7 -8,2 0 9 34 5 1/6 -1 4/5**

3. **Pažymėkite sveikuosius skaičius:**

**-2 5 -2,7 -8,2 0 9 34 5 1/6 -1 4/5**

**4. Pažymėkite nurodytus taškus tiesėje:**

**a) B (2), C (-3), D (-5), E (2,5)**




**b) B (3 1/2), C (-2), D (-2 1/2), E (4,5)**




**c) B (-4,5), C (-2 1/4), D (3/2), E (-3,5)**




**5.Skaičių tiesėje pažymėkite visus natūraliuosius skaičius:**

**a) mažesni už 9**




LIVEWORKSHEETS

**b) didesni už 2, mažesni už 8**

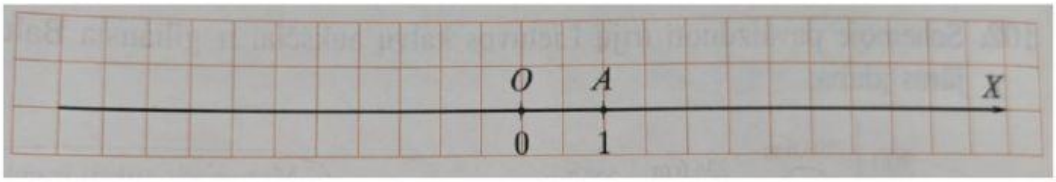


**6. Surašykite visus sveikuosius skaičius, esančius skaičių tiesėje tarp skaičių:**

**a) -2 ir 3**

**b)-3 ir 3,5**

**c)-3,2 ir 3,7**

**7. Kokius skaičius atitinka skaičių tiesės taškai B, C, D, E:**




LIVEWORKSHEETS