KINGDOM OF BAHRAIN
Ministry of Education
Zallaq Primary Preparatory Girls School

تعلم ذاتي – قياس وحدات الكتلة

الاسم: _____ الصف: ____ ١ ____

كراسة التمارين صفحة ٣٠

١٠-٦ وحداتُ قياسِ الكتلةِ

اختر التقديرَ الأَفْضَلَ لِكُتْلَةِ كلٍّ مِمَّا يأتي:

١

٢٥٠ جم أم ٢٥٠ كجم .....

٢ 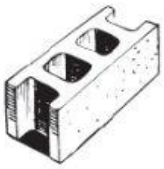

٣ جم أم ٣ كجم .....

٣ 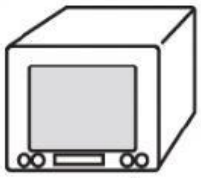

٢٠ جم أم ٢٠ كجم .....

٤ 

٤٥ جم أم ٤٥ كجم .....

٥ إذا كانَت كتلةُ حبّةِ فولٍ هي ٥، فما الوحدةُ المتريّةُ التي استُعمِلَتْ لقياسِ كُتْلَتِهَا ؟

.....

٦ إذا كانت كتلةُ الدراجةِ ١٠ ، فما الوحدةُ المتريّةُ التي استُعمِلَتْ في قياسِ كُتْلَتِهَا؟

.....

إعداد: أ. إيمان حماد منسقة المادة: أ.هدى محسن مديرة المدرسة: أ. أمل الملا

LIVEWORKSHEETS