3 Làm theo mẫu.

Mẫu:

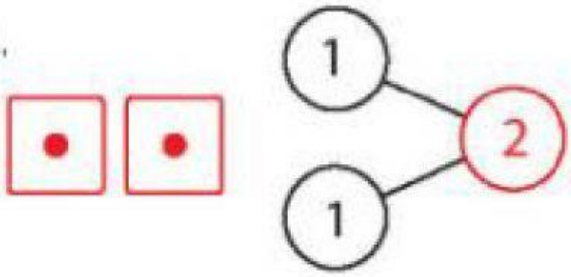

Gộp một và một được hai.

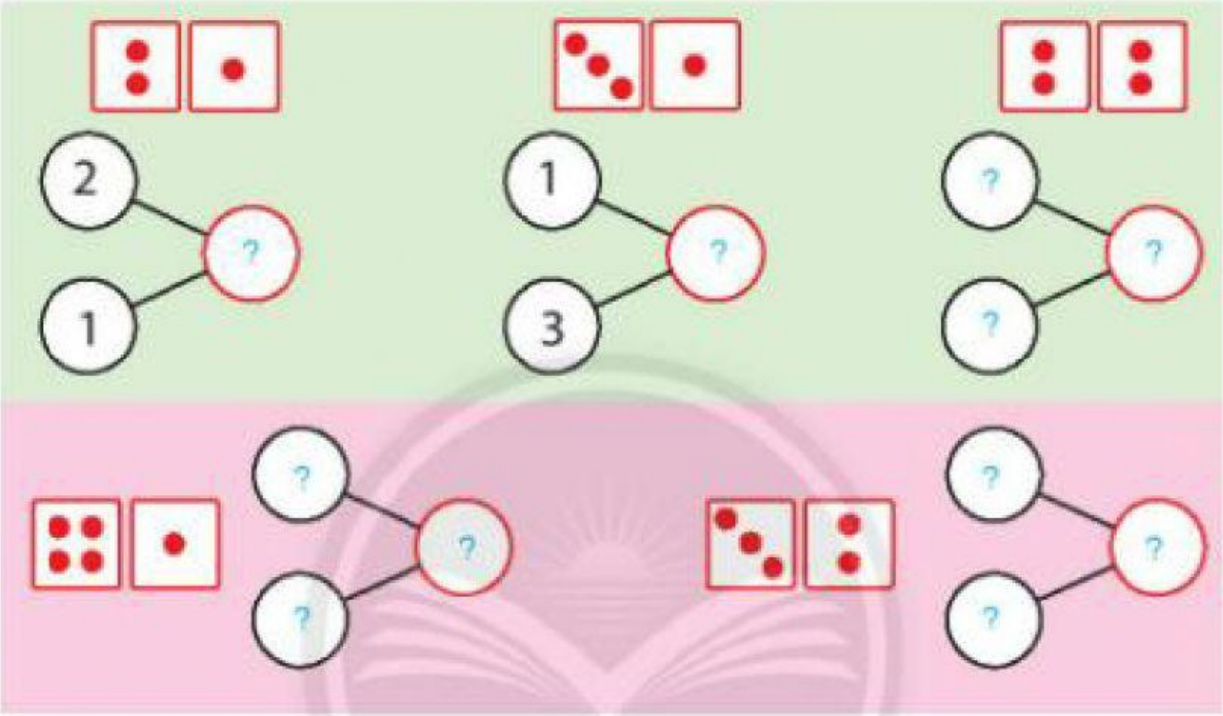

2

a. Nêu kết quả phép tính.

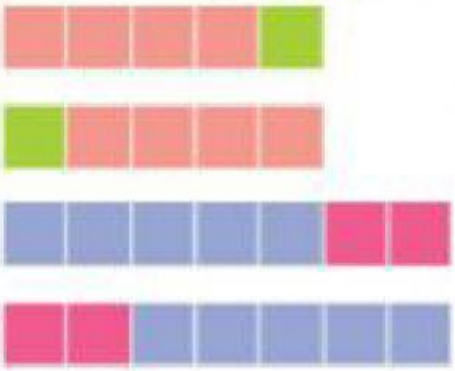

4 + 1 = 5

1 + 4 = ?

5 + 2 = ?

2 + 5 = ?

Phép tính 4 + 1 có kết quả bằng 5.

LIVEWORKSHEETS

3 Nêu kết quả phép tính.

2 + 4 = ?

4 + 2 = ?

1 + 5 = ?

5 + 1 = ?

1 + 3 = ?

3 + 1 = ?

4 Xem tranh rồi nêu số.

a.

2 + 1 = ?

Có tất cả ? con cáo.

b.



? + 2 = ?

Có tất cả ? con thỏ.

LIVEWORKSHEETS