Математика 2

1. Розташуй приклади.



6•2=12 4•3=12 2•6=12 7•3=12 3•4=12

3•7=12 4•5=12 5•4=12

2. У кожній задачі є слова, які показують нам дію яку необхідно виконати. Розташуй такі слова чи вирази по діях.

по ?, на 6 >

На скільки більше?

Всього?

у ?,на 6 <

Залишилось?

в На скільки менше?

?,у 7р. >

LIVEWORKSHEETS

3. Які числові вирази допоможуть обчислити периметр фігур?

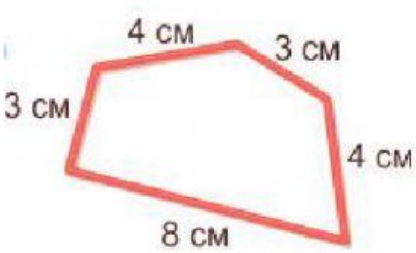

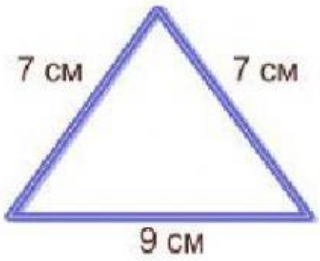

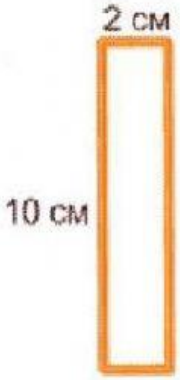

10+2 7+7+9 4+4+3+3+8 (7+9)·2

4·2+3·2+8 4+3+8 (4+3+8)·2 (4+3)·2+8

10+10+2+2 7·2+9 10·2+2·2 (10+2)·2

4. Повтори табличку множення.

LIVEWORKSHEETS