Utilizando las engrapadoras como unidad de medida, a ¿cuántas engrapadoras equivale cada uno de los objetos presentados?





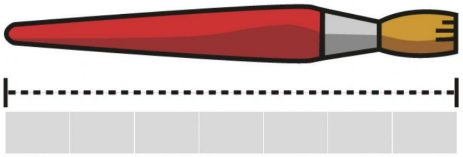

El pincel mide ☐ engrapadoras.



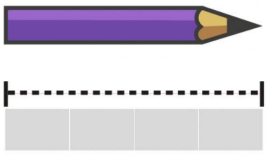

El lapiz mide ☐ engrapadoras.



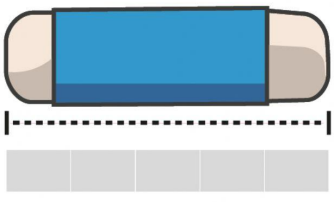

El borrador mide ☐ engrapadoras.

LIVEWORKSHEETS