Tuần 35

Ôn tập về hình học và đo lường (*Tiết 2*)
Ôn tập về một số yếu tố thống kê và xác suất
Ôn tập chung
Ôn tập, kiểm tra đánh giá cuối học kì 2

I. Phần trắc nghiệm.

Chọn câu trả lời đúng:

Câu 1 Số gồm **7** trăm, **8** chục và **1** đơn vị viết là:

A. 781 **B.** 718 **C.** 178 **D.** 187

Câu 2 Tích của **5** và **8** là:

A. 15 **B.** 13 **C.** 45 **D.** 40

Câu 3 Con vật nuôi nặng nhất là:

A. Lợn **B.** Bò

C. Trâu **D.** Dê

Vật nuôi	Lợn	Bò	Trâu	Dê
Cân nặng	126 kg	360 kg	371 kg	46 kg

Câu 4 Để về đến nhà, Kiến cần đi hết quãng đường dài là:

A. 20 dm **B.** 416 cm

C. 56 dm **D.** 434 cm

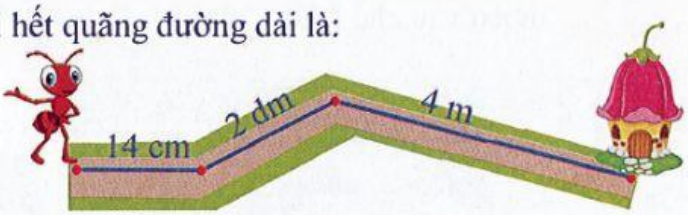

Câu 5 Đồng hồ bên chỉ:

A. 11 giờ **B.** 3 giờ 15 phút

C. 15 giờ 30 phút **D.** 23 giờ 15 phút

Câu 6 Hình bên có:

A. 2 hình tứ giác **B.** 3 hình tứ giác

C. 4 hình tứ giác **D.** 5 hình tứ giác

Câu 7 Nếu ngày 11 tháng 3 là thứ sáu thì ngày Quốc tế Phụ nữ 8 tháng 3 là thứ mấy?

A. thứ ba **B.** thứ tư **C.** thứ năm **D.** thứ hai

LIVEWORKSHEETS

II. Phần tự luận.

Bài 1 Đặt tính rồi tính:

37 + 48 526 + 338 88 − 59 626 − 574 351 − 43

Bài 2 Tính:

42 kg + 18 kg = 2 dm × 7 =

427 km − 208 km = 40 cm : 5 =

Bài 3 Điền vào chỗ trống:

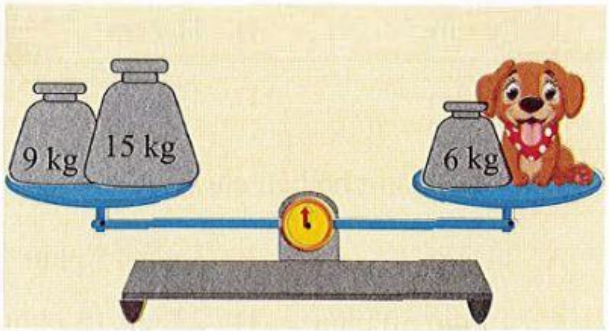

Thời gian hai bạn chơi bóng là phút. Con chó cân nặng là: .

Bài 4 Tính:

1000 − 200 + 75 = 170 + 350 − 260 =

452 + 381 − 605 = 792 − 447 + 335 =

LIVEWORKSHEETS

Bài 5 Số?

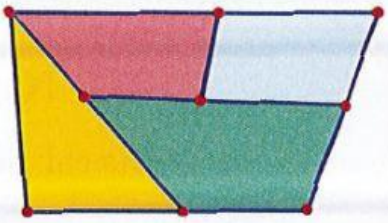

Hình bên có: ☐ đoạn thẳng và ☐ hình tứ giác.

Bài 6 Mẹ chia đều 50 kg gạo và đóng thành 5 túi. Hỏi mỗi túi có bao nhiêu ki-lô-gam gạo?

Bài giải

Bài 7 Trang trại nhà Phong có 315 con gà. Trang trại nhà An có nhiều hơn trang trại nhà Phong 125 con gà. Hỏi trang trại nhà An có bao nhiêu con gà?

Bài giải

Bài 8 Cô Năm chở 6 chuyến đò thì đưa hết các bạn nhỏ qua sông đi học. Mỗi chuyến đò cô chở được 5 bạn. Hỏi cô Năm đã chở bao nhiêu bạn nhỏ qua sông?

Bài giải

LIVEWORKSHEETS