Tuần 34

Ôn tập về số và phép tính trong phạm vi 1000

Ôn tập về số và phép tính trong phạm vi 1000 (*Tiếp theo*)

Ôn tập về hình học và đo lường (*Tiết 1*)

I. Phần trắc nghiệm.

Chọn câu trả lời đúng:

Câu 1 Số gồm **6** trăm, **2** chục và **3** đơn vị viết là:

A. 623 **B.** 326 **C.** 632 **D.** 362

Câu 2 Số liền trước của số **300** là:

A. 301 **B.** 289 **C.** 299 **D.** 298

Câu 3 Tích của **2** và **7** là:

A. 9 **B.** 14 **C.** 5 **D.** 12

Câu 4 Số?

212 − **?** = **45** : **5**

A. 206 **B.** 205

C. 204 **D.** 203

Câu 5 Trong các phép tính sau, phép tính có kết quả lớn nhất là:

A. 754 + 52 **B.** 438 − 219 **C.** 658 + 124 **D.** 831 − 380

Câu 6 Hình bên có bao nhiêu đoạn thẳng?

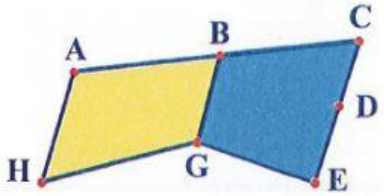

A. 7 **B.** 8

C. 9 **D.** 10

Câu 7 Một cuốn sách có 325 trang. An đã đọc được gần hết cuốn sách đó và chỉ còn 32 trang chưa đọc. Số trang sách An đã đọc được là:

A. 357 trang **B.** 293 trang **C.** 393 trang **D.** 290 trang

Câu 8 Hiệu lớn nhất của hai số có ba chữ số là:

A. 999 **B.** 900 **C.** 990 **D.** 899

LIVEWORKSHEETS

II. Phần tự luận.

Bài 1 Điền vào chỗ trống:

Trăm	Chục	Đơn vị	Viết số	Đọc số
5	4	1		
			724	
				sáu trăm ba mươi lăm

Bài 2 Đặt tính rồi tính:

168 + 24 473 − 269 576 + 9 791 − 28 614 + 256

Bài 3 Tính nhẩm:

5 × 5 = 5 × 7 = 2 × 6 = 5 × 9 =

40 : 5 = 20 : 2 = 30 : 5 = 14 : 2 =

Bài 4 Quan sát bức tranh rồi viết phép nhân và hai phép chia thích hợp:



× =

: =

: =

LIVEWORKSHEETS

Bài 5 Số?



Hình trên có:

☐ hình tam giác,

☐ hình tứ giác.

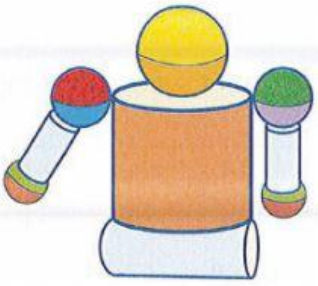

Hình trên có:

☐ khối trụ,

☐ khối cầu.

Bài 6 Nhà Mai thu hoạch được 325 quả dưa hấu. Thương lái đã đến mua của nhà Mai 275 quả dưa hấu.

a. Hỏi nhà Mai còn lại bao nhiêu quả dưa hấu?

Bài giải

b. Mẹ Mai muốn đóng số dưa hấu còn lại vào các thùng, mỗi thùng 5 quả. Hỏi mẹ Mai cần bao nhiêu thùng để đóng hết số dưa hấu đó?



Bài giải

LIVEWORKSHEETS