معهد الشيخ خليفة بن سلمان للتكنولوجيا
Sh.Khalifa Bin Salman Institute Of Technology

اسم الطالب :	الشعبة:

اسم الدرس: **العدسات المحدبة و الصور الحقيقية**

تقويم الهدف الأول

س1 / اختر رمز الإجابة الصحيحة في كل من الفقرات الآتية :

1. إذا كان الجسم يقع بين البؤرة F وأقل من ضعفي البعد البؤري F2 من عدسة محدبة فإن صفات الصورة المتكونة .....

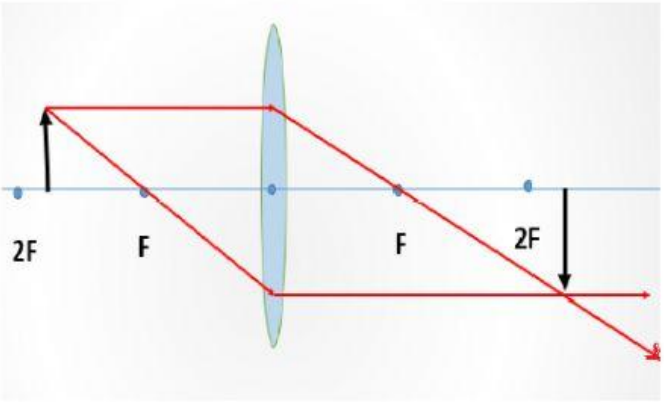

أ. حقيقية مقلوبة مكبرة

ب. حقيقية مقلوبة مصغرة

2. إذا كان الجسم على بعد يساوي ضعفي البعد البؤري 2F من عدسة محدبة فإن صفات الصورة المتكونة .....

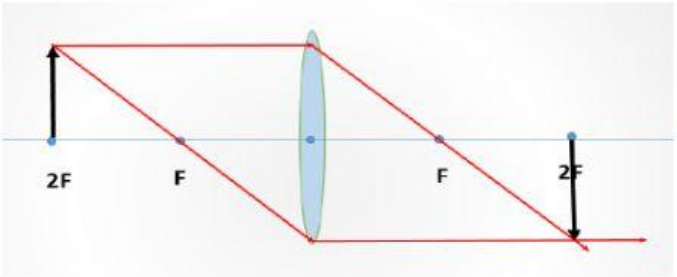

أ. حقيقية مقلوبة مساوية للجسم

ب. حقيقية مقلوبة مكبرة

3 – إذا كان الجسم أبعد من ضعفي البعد البؤري 2F من عدسة محدبة فإن صفات الصورة المتكونة .....

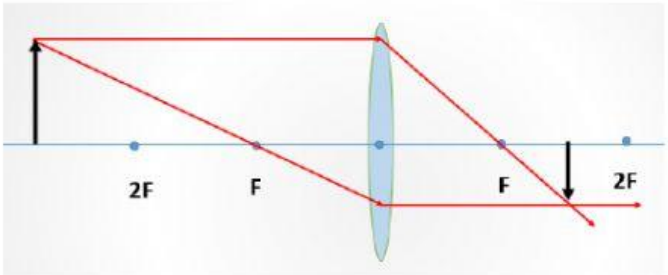

أ. حقيقية مقلوبة مكبرة

ب. حقيقية مقلوبة مصغرة

LIVEWORKSHEETS