Thứ.....ngày .....tháng.....năm.....

Tuần 27

Phần 1. Khoanh tròn chữ cái đặt trước câu trả lời đúng hoặc làm theo yêu cầu:

Câu 1. Hình nào đã tô màu $\frac{1}{2}$ số ô vuông?

A. 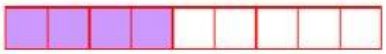

B. 

C. 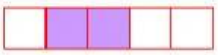

D. 

Câu 2. Phân số $\frac{4}{9}$ bằng phân số nào dưới đây?

A. $\frac{8}{27}$ B. $\frac{26}{36}$ C. $\frac{12}{27}$ D. $\frac{24}{18}$

Câu 3. Phân số bé nhất trong các phân số $\frac{8}{11}$; $\frac{11}{8}$; $\frac{8}{8}$; $\frac{11}{11}$ là:

A. $\frac{8}{11}$ B. $\frac{11}{8}$ C. $\frac{8}{8}$ D. $\frac{11}{11}$

Câu 4. Phân số nào lớn nhất trong các phân số: $\frac{1}{4}$; $\frac{2}{3}$; $\frac{9}{12}$; $\frac{3}{24}$?

A. $\frac{1}{4}$ B. $\frac{2}{3}$ C. $\frac{9}{12}$ D. $\frac{3}{24}$

Câu 5. Những biểu thức nào có giá trị không bằng $\frac{5}{8}$?

A. $\frac{3}{8}:\frac{1}{2}\times\frac{5}{6}$ B. $\left(1-\frac{1}{6}\right)\times\frac{3}{4}$

C. $\frac{2}{3}+\frac{1}{2}-\frac{13}{24}$ D. $\frac{5}{3}-\frac{2}{3}\times\frac{5}{8}$

Câu 6. Trong hình thoi ABCD; AC = 2dm; BD = 12cm, Đúng ghi Đ, sai ghi S:

- ☐ a. AB và DC không bằng nhau.
- ☐ b. AB song song với AD.
- ☐ c. AB song song với CD và AD song song với BC.
- ☐ d. Bốn cạnh đều bằng nhau.
- ☐ e. Diện tích hình thoi là $24cm^2$.
- ☐ g. Diện tích hình thoi là $120cm^2$.
- ☐ h. Diện tích hình thoi là $12dm^2$

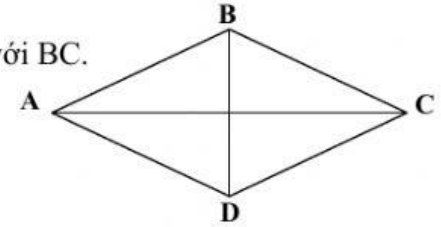

LIVEWORKSHEETS

Phần 2. Giải các bài toán sau:

Bài 1. Tính:

a. $\frac{2}{3}+\frac{3}{4}=$ ___ + ___ = ___

b. $\frac{5}{6}-\frac{1}{3}=$ ___ - ___ = ___ = ___

c. $\frac{2}{5}\times\frac{15}{8}=$ ___ = ___

d. $\frac{1}{2}:\frac{2}{5}=$ ___ x ___ = ___

Bài 2. Tính giá trị biểu thức:

a. $\frac{1}{3}+\frac{4}{3}\times\frac{1}{2}$

= ___ ___

= ___ =

b. $\frac{3}{5}\times\frac{4}{7}:\frac{16}{21}$

= ___ ___ ___

= ___ = ___

Bài 3. Một thửa ruộng hình chữ nhật có chiều dài 120 m, chiều rộng bằng $\frac{3}{5}$ chiều dài. Tính chu vi và diện tích của thửa ruộng đó.

Chiều rộng của thửa ruộng là:

Chu vi của thửa ruộng là:

Diện tích của thửa ruộng là:

Đáp số: CV: DT:

Bài 4. Tìm hai số khi biết tổng của chúng bằng $\frac{4}{7}$ và hiệu của chúng bằng $\frac{1}{2}$.

Số lớn là: ___

Số bé là: ___

LIVEWORKSHEETS