Integral Tentu (Menghitung Luas)

Nama :

Kelas :

Petunjuk Pengisian jawaban :

1. **Ketiklah langsung hasil akhirnya saja**
2. **Ketiklah 'per" jika menuliskan pecahan. Misalnya $-\frac{1}{2}$ ditulis -1per2 (tanpa spasi)**

Soal :

Tentukan luas daerah yang dibatasi oleh garis y = -x-3, garis x = 0, garis x = -3, dan sumbu x.

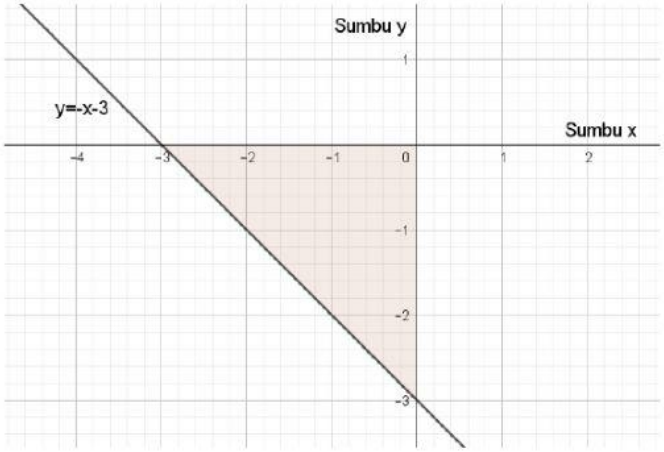

Tentukan luas daerah yang dibatasi oleh kurva $y = x^2 - 9x + 18$, garis x = 4, garis x = 5, dan sumbu x.

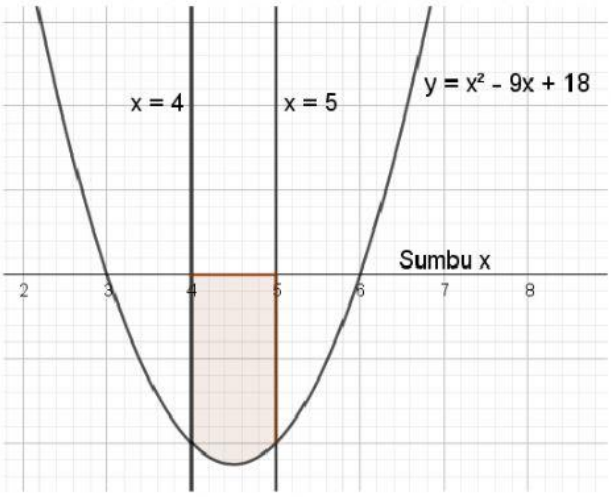

LIVEWORKSHEETS

Tentukan luas daerah yang dibatasi oleh garis y = -2, garis x = -1, garis x = 7, dan sumbu x.

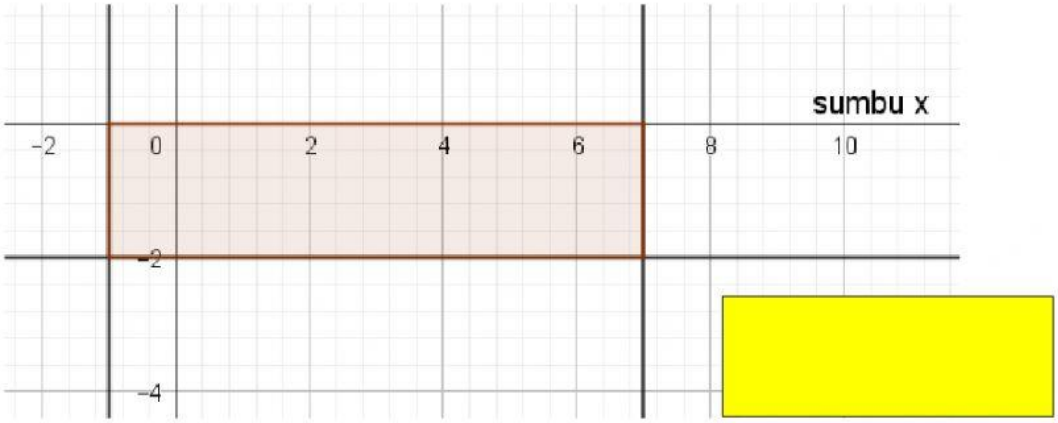

Tentukan luas daerah yang dibatasi oleh garis y = x-4, garis x = -1, garis x = 7, dan sumbu x.

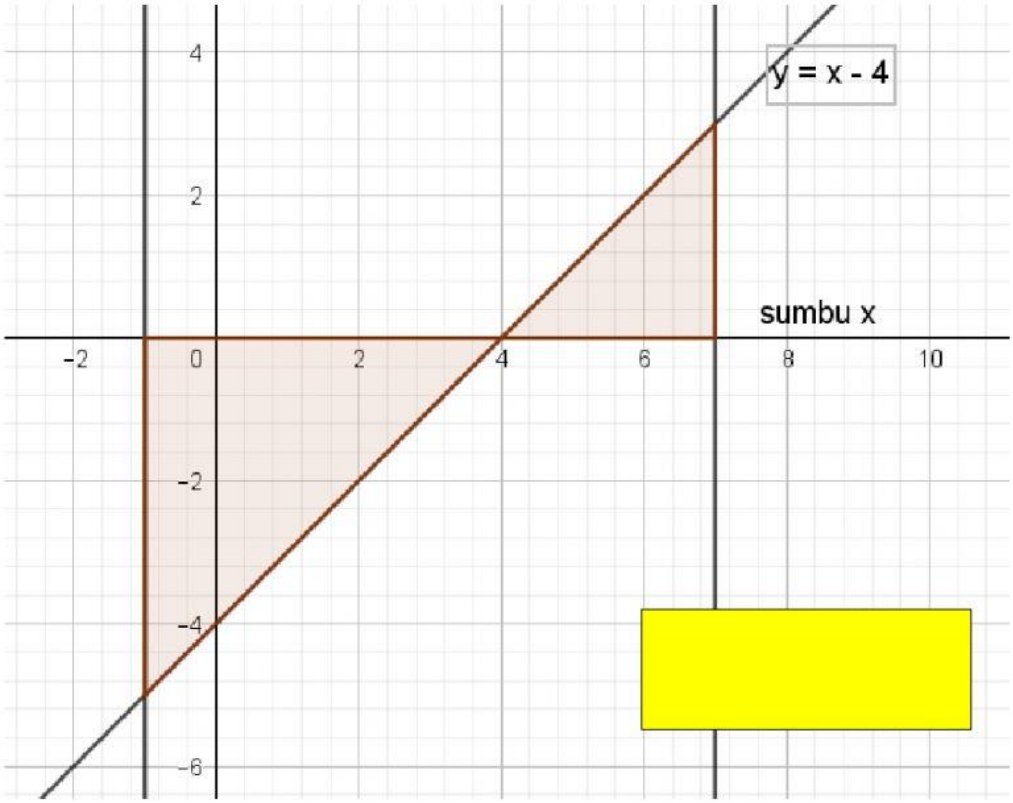

Selamat mengerjakan !

LIVEWORKSHEETS