KINGDOM OF BAHRAIN
Ministry of Education
Al Busaiteen Intermediate Girls School

مملكة البحرين
وزارة التربية والتعليم
مدرسة البسيتين الإعدادية للبنات

CC BY NC

قسم الرياضيات

المثلثات

١/ صح أم خطأ :

المثلث هو شكل ذو أربعة أضلاع و أربعة زوايا ( )

٢ / صل كل مثلث بالقيمة المناسبة له :

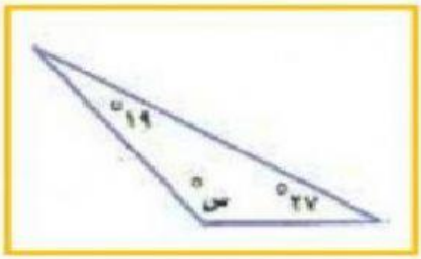

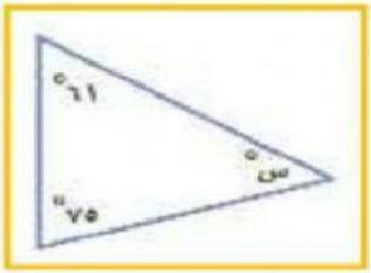

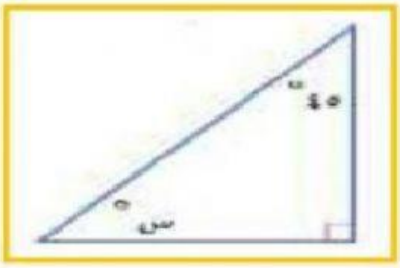

قيمة س = ٤٥°

قيمة س = ١٣٤°

قيمة س = ٤٤°

٣ / اختر الإجابة الصحيحة ؟

إذا كان ق < س في Δ س ص ع = ٣٧°

و ق < ص = ٥٥ ° ، فإن ق < ع في Δ تساوي .....

- ٢٦ °
- ١٠٥°
- ٣٥ °
- ٨٨ °

معلمة المادة : أ/ اقبال جمعة منصور

LIVEWORKSHEETS