Bài 50 : Luyện tập trang 48; trang 49.

1 Chạm tay vào đáp án em cho là đúng ?

700 < 900 ☐ 520 = 250 ☐

890 > 800 ☐ 270 < 720 ☐

190 = 190 ☐ 460 > 640 ☐

2 Hãy gắn các biển số lên mỗi nhà kho để các ngôi nhà được đánh số theo thứ tự từ lớn đến bé.

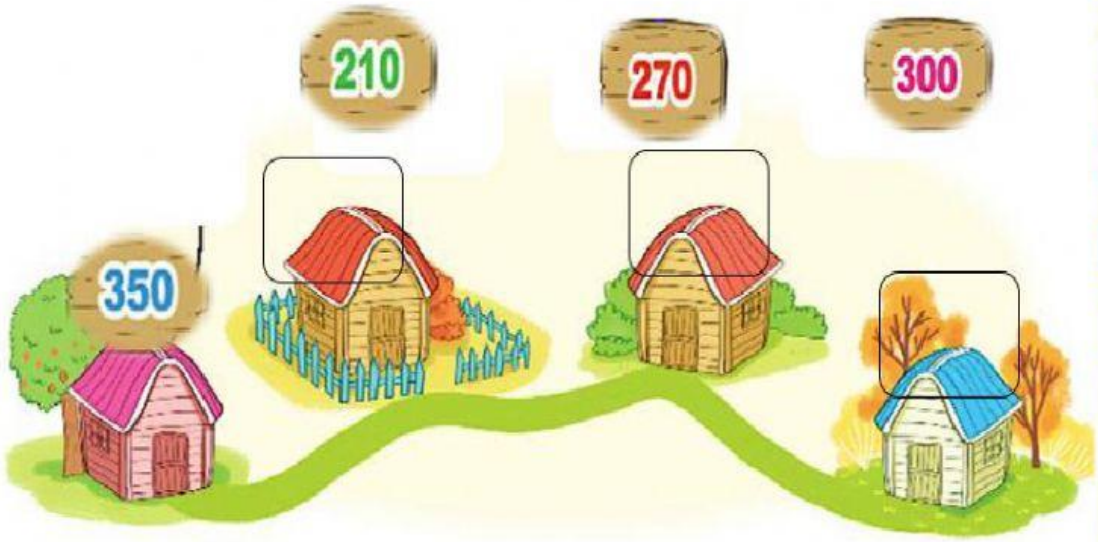

LIVEWORKSHEETS

3 Sắp xếp các tảng đá theo thứ tự từ bé đến lớn?

4



a) Số lớn nhất ghi trong các toa tàu là:

LIVEWORKSHEETS

4 b) Sắp xếp lại các toa tàu theo thứ tự từ lớn đến bé.

5 Dựa vào hình vẽ, kéo số cân nặng của mỗi bạn gấu vào ô thích hợp.



480 kg | 400 kg | 540 kg

cân nặng

cân nặng

cân nặng

LIVEWORKSHEETS

LIVEWORKSHEETS