اسمي:

ما الصورة التي تمثل التمثيل البياني بالنقاط المجمعة

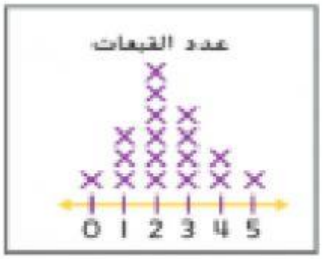

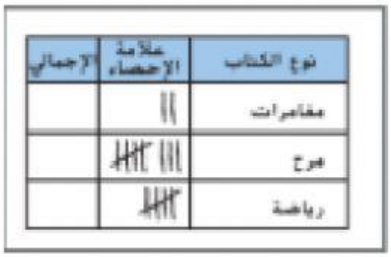

نوع الكتاب	علامة الإحصاء	الإجمالي
مغامرات	||	
مرح	卌 卌 |||	
رياضة	卌	

ما التمثيل البياني بانقاط المجمعة المناسب للبيانات التالية

الحيوانات الأليفة	علامة الإحصاء
1	||
2	|||
3	||
4	|

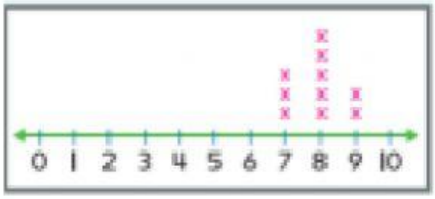

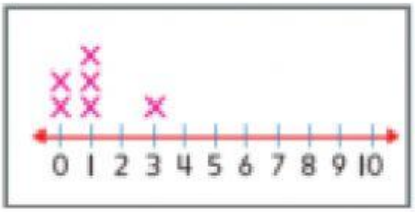

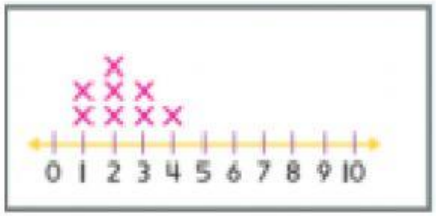

LIVEWORKSHEETS