Nama:

Kelas :

Penguatan Matematika Kelas 2

Pasangkanlah gambar berikut dengan pecahan yang sesuai dengan cara menarik garis!

Banyaknya siswa laki-laki pada kumpulan siswa berikut sesuai dengan nilai pecahan ...

$\frac{1}{2}$

$\frac{1}{3}$

$\frac{1}{4}$

LIVEWORKSHEETS

Banyaknya siswa perempuan pada kumpulan siswa berikut sesuai dengan nilai pecahan ...

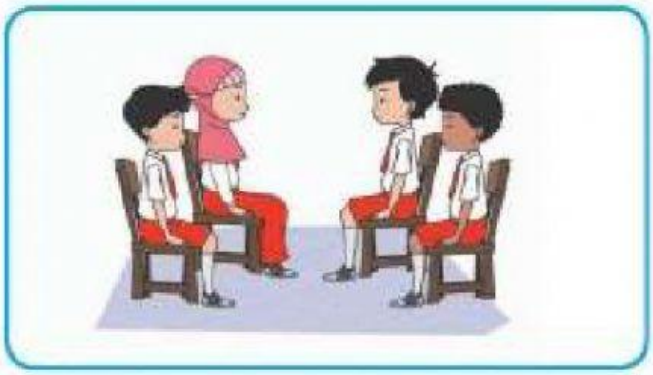

$\frac{1}{2}$



$\frac{1}{3}$

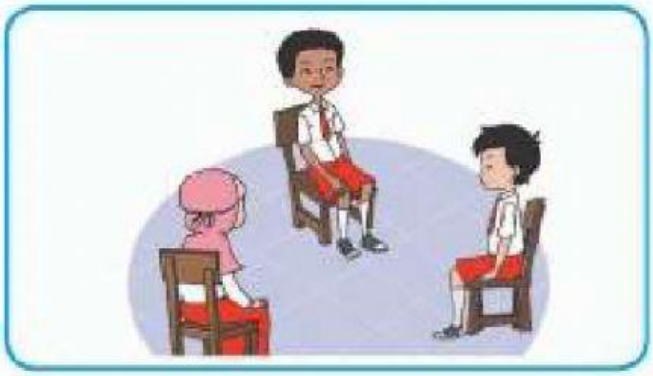

$\frac{1}{4}$

LIVEWORKSHEETS

Pasangkan pecahan dan gambar yang sesuai!

Nyatakan pecahan yang menyatakan banyaknya burung kuning dari kawanan burung berikut ini!

$\frac{1}{2}$ ■ □

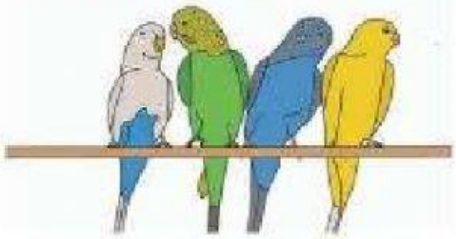

$\frac{1}{3}$ ■ □

$\frac{1}{4}$ ■ □

□

LIVEWORKSHEETS

Ayo, perhatikan beberapa tumpukan buku berikut!

Buku yang berdiri dapat dinyatakan dengan pecahan ... $\frac{\quad}{\quad}$

Buku warna merah dari tumpukan buku di samping dapat dinyatakan dengan pecahan ... $\frac{\quad}{\quad}$

Buku yang memiliki pita dari kumpulan buku di samping dapat dinyatakan dengan pecahan ... $\frac{\quad}{\quad}$

Buku yang memiliki pita dari kumpulan buku di samping dapat dinyatakan dengan pecahan ... $\frac{\quad}{\quad}$

Siti mengambil salah satu buku dari kumpulan buku di samping. Buku yang diambil Siti dari kumpulan di samping dapat dinyatakan dengan pecahan ... $\frac{\quad}{\quad}$

LIVEWORKSHEETS