مملكة البحرين

وزارة التربية والتعليم

مدرسة السهلة الإبتدائية الأعدادية للبنين

قسم الرياضيات

الأشكال الرباعية

اسم الطالب:.....

صنف الأشكال الرباعية الأتية (صل بخط بين الشكل و الأسم المناسب للشكل)

الشكل	اسم الشكل
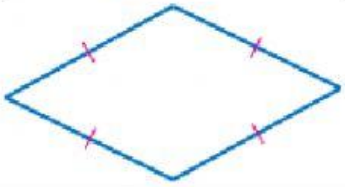	شكل رباعي
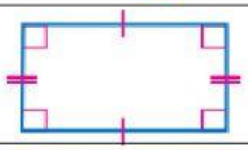	متوازي الأضلاع
	المستطيل
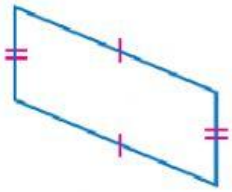	المربع
	المعين
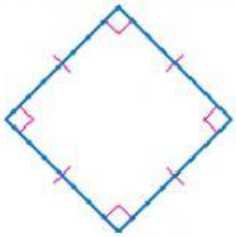	شبه المنحرف

إعداد: أ. رامي دراوشه

LIVEWORKSHEETS
LIVEWORKSHEETS