Integral Tentu (Menghitung Luas)

Nama :

Kelas :

Petunjuk Pengisian jawaban :

1. **Ketiklah langsung hasil akhirnya saja**
2. **Ketiklah 'per" jika menuliskan pecahan. Misalnya $-\frac{1}{2}$ ditulis -1per2 (tanpa spasi)**

Soal :

Tentukan luas daerah yang dibatasi oleh garis y = -2x+3, garis x = 0, garis x = 1, dan sumbu x.

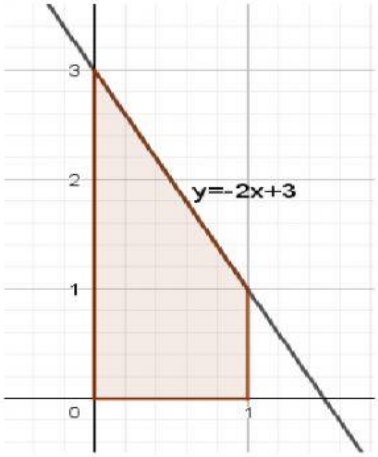

Tentukan luas daerah yang dibatasi oleh garis y = x+5, garis x = -5, garis x = 2, dan sumbu x.

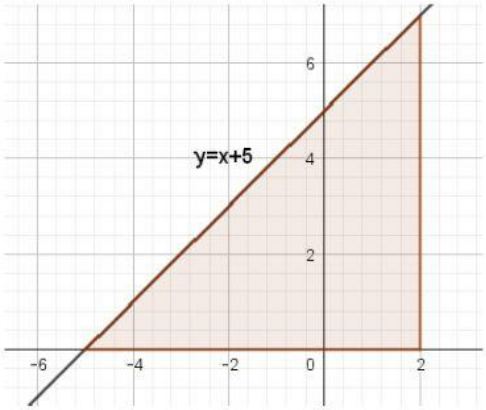

LIVEWORKSHEETS

Tentukan luas daerah yang dibatasi oleh garis y = -x-5, garis x = -8, garis x = -6, dan sumbu x.

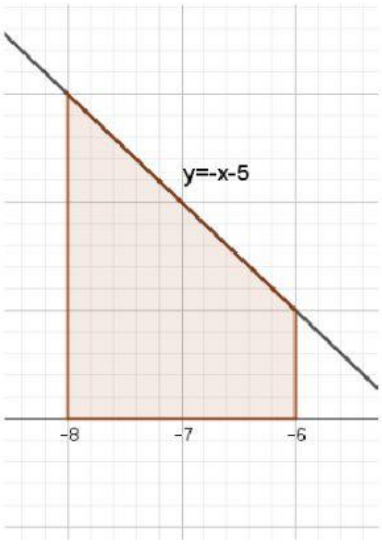

Tentukan luas daerah yang dibatasi oleh garis y = x, garis x = 1, garis x = 5, dan sumbu x.

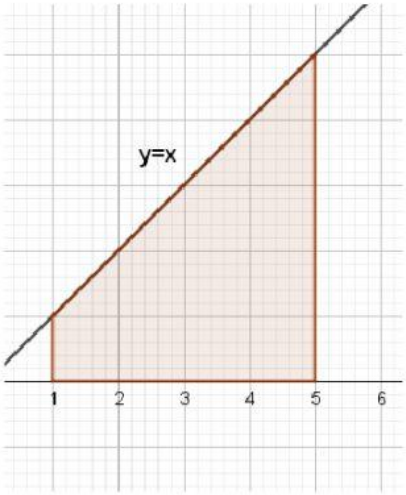

Selamat mengerjakan !

LIVEWORKSHEETS