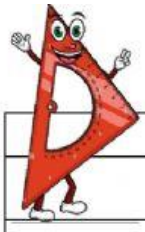

مجموع قياسات زوايا المثلث الثلاث



الكفاية	أن تستكشف الطالبة مجموع زوايا المثلث.

باستخدام المنقلة قومي بتحديد قياسات الزوايا الثلاث و سجليها في الجدول ثم أجمعي القياسات:

١

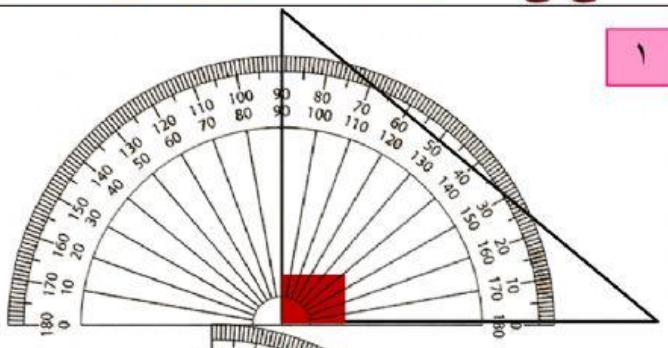

٢

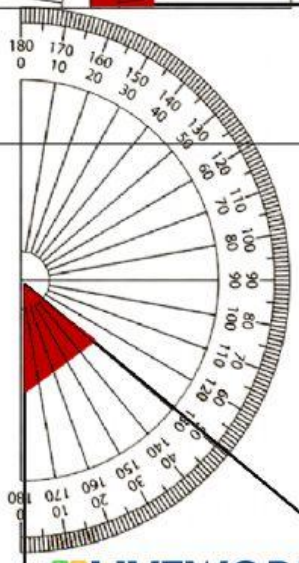

٣

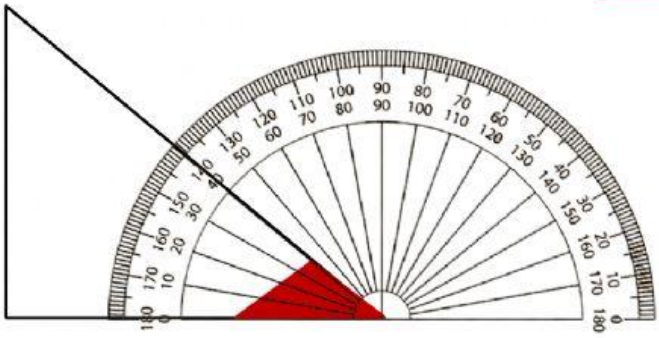

قياس الزاوية ١	
قياس الزاوية ٢	
قياس الزاوية ٣	
المجموع	

LIVEWORKSHEETS

مجموع قياسات زوايا المثلث الثلاث



الكفاية	أن تستكشف الطالبة مجموع زوايا المثلث.

باستخدام المنقلة قومي بتحديد قياسات الزوايا الثلاث و سجليها في الجدول ثم أجمعي القياسات.

١

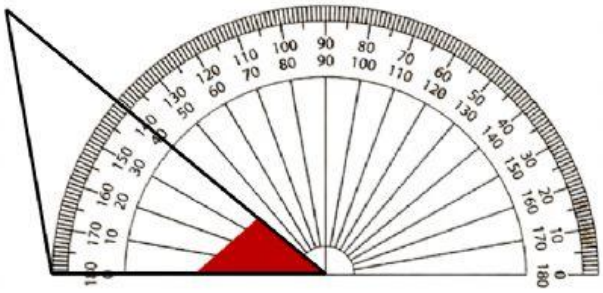

٣

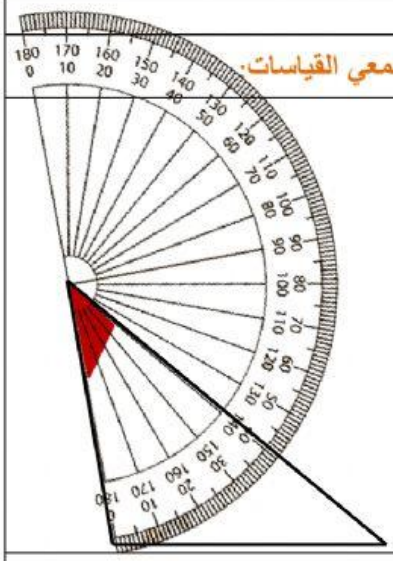

٢

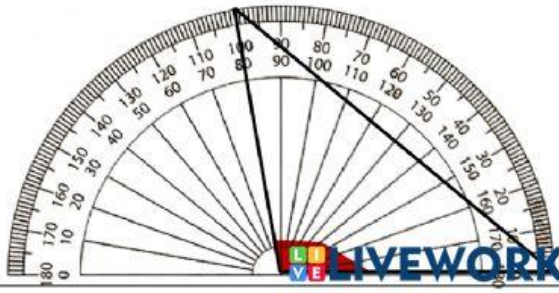

قياس الزاوية ١	
قياس الزاوية ٢	
قياس الزاوية ٣	
المجموع	

LIVEWORKSHEETS