Con tên là.....

TOÁN:
ÔN TẬP TUẦN 12
HỌC TOÁN CÙNG ẾCH XANH

KHỞI ĐỘNG

Viết phép tính (theo mẫu)

1 + 2 = 3
2 + 1 = 3



.....
.....

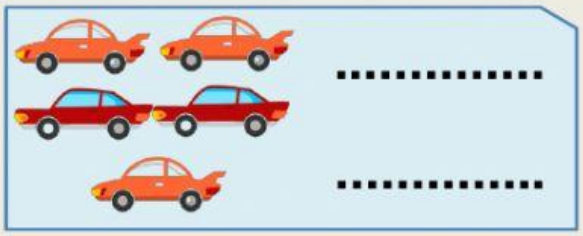

.....
.....

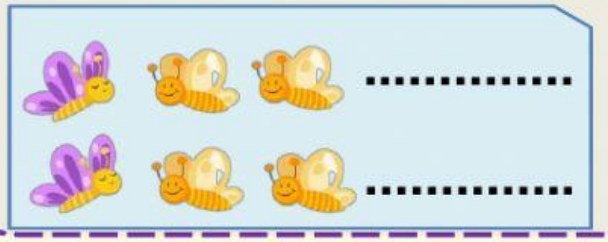

.....
.....

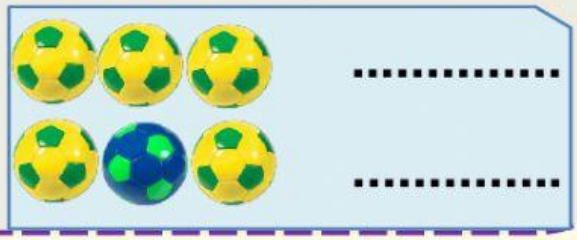

.....
.....

TĂNG TỐC

1 Hãy giúp ếch con tìm đường về nhà bằng cách tính thật cẩn thận các phép tính sau:

3 — 6 + 2 =

4 — 9 = 5 +...

2 — 3 + 6 =...

5 — 10 = 7 + ...

1 — 4 + 2 =...

LIVEWORKSHEETS

TĂNG TỐC

2 Ếch xanh kết bạn

VỀ ĐÍCH

6 + 3 8

7 .... 3 + 3

4 .... 1 + 3

10 .... 2 + 5

5 .... 3 + 5

4 + 1 .... 5 + 1

Quan sát tranh rồi điền số thích hợp vào ô trống để được hai phép tính:



	+		=	
	+		=	

Cảm ơn các bạn đã về đích thành công cùng mình nhé!

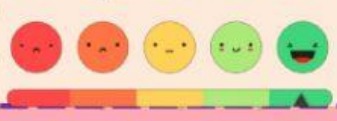

LIVEWORKSHEETS