SOAL LATIHAN
GARIS DAN SUDUT

Nama : _____ Kelas : _____

Petunjuk :

a. Jawablah Pertanyaan berikut dengan Benar !!!
b. Tulislah A, B, C, dan D pada kotak yang tersedia.

==========

1. Pada gambar berikut, garis g sejajar dengan h dipotong garis k.

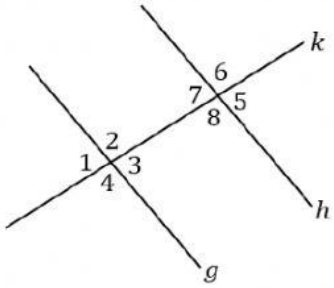

Pasangan sudut luar sepihak adalah ....

A. $\angle 1$ dan $\angle 5$
B. $\angle 2$ dan $\angle 5$
C. $\angle 4$ dan $\angle 5$
D. $\angle 4$ dan $\angle 6$

2. Besar $\angle QOR$ pada gambar berikut adalah ....

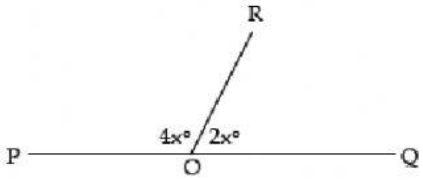

A. 30° C. 60°
B. 40° D. 80°

3. Perhatikan gambar di bawah.

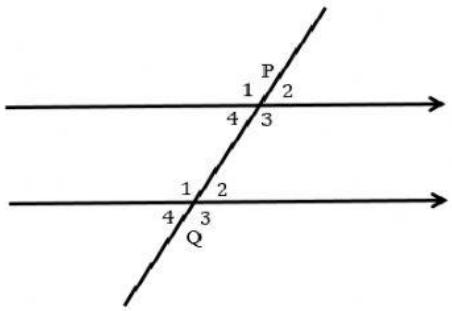

Jika besar $\angle P_1 = 130^\circ$, maka besar $\angle Q_4$ adalah ....

A. 70° C. 50°
B. 65° D. 35°

LIVEWORKSHEETS

4. 1/6 putaran merupakan sudut …

A. Lancip B. Tumpul C. Siku-siku D. Refleks

5. Penyiku sudut 15° adalah…

A. 15°
B. 75°
C. 90°
D. 105°

6. Perhatikan gambar berikut!

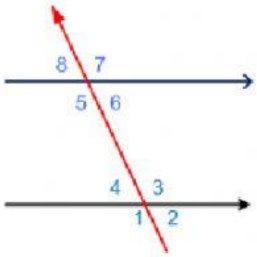

Pasangan sudut luar sepihak adalah…
A. ∠2 dengan ∠7
B. ∠4 dengan ∠8
C. ∠2 dengan ∠5
D. ∠4 dengan ∠5

7. Besar penyiku suatu sudut 58°. Besar pelurus sudut tersebut adalah…
A. 100° C. 122°
B. 116° D. 148°

8. Perhatikan gambar di bawah ini

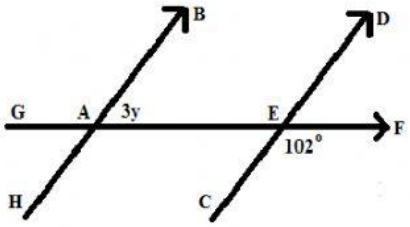

Nilai y adalah ....
A. 24°
B. 25°
C. 26°
D. 34°

9. Perhatikan gambar di bawah ini

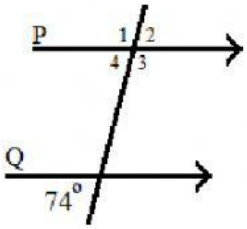

Besar ∠P3 adalah ....
A. 37° C. 106°
B. 74° D. 148°

10. Perhatikan gambar di bawah ini

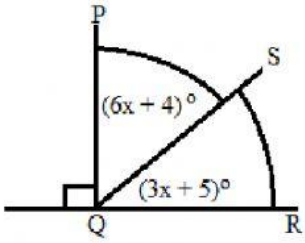

Besar penyiku ∠SQR adalah ....
A. 9°
B. 32°
C. 48°
D. 58°

GOOD LUCK

LIVEWORKSHEETS