SOAL PILIHAN GANDA

Dibawah ini yang merupakan gambar dari jantung adalah ....

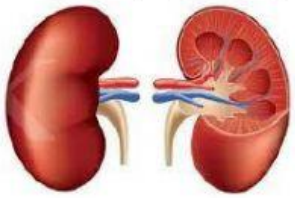

SOAL ISIAN SINGKAT DAN PARAGRAF

1. Yang berfungsi untuk menyaring darah adalah ....
2. Fungsi jantung adalah ....

SOAL DROP DOWN

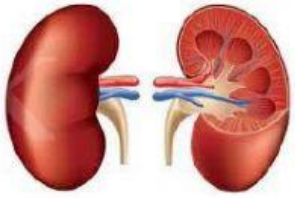

SOAL CHECK BOX

Yang merupakan organ pada sistem ekskresi adalah :

- KULIT
- JANTUNG
- PARU
- HATI

SOAL JOIN ARROW

- JANTUNG
- GINJAL
- PARU

LIVEWORKSHEETS

SOAL DRAG AND DROP

PINDAHKAN GAMBAR DI BAWAH INI BERDASARKAN NAMA YANG SESUAI

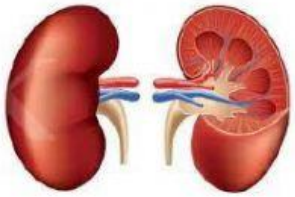

JANTUNG

GINJAL

PARU

SOAL LISTENING

BENAR SALAH

BENAR SALAH

SOAL SPEAKING

LIVEWORKSHEETS

SOAL WORD SEARCH

CARI KATA : GINJAL, PARU, JANTUNG, KULIT, LAMBUNG

A	D	A	K	A	H	J	U
G	U	P	E	R	K	I	O
I	J	A	N	T	U	N	G
N	U	R	A	U	L	E	O
J	D	U	N	A	I	R	D
A	I	R	G	U	T	E	R
L	A	M	B	U	N	G	A
C	I	N	T	A	K	U	L

LIVEWORKSHEETS