Luyện tập

1 a) Số ?

Trong hình bên có:

- [ ] khối trụ;
- [ ] khối cầu;
- [ ] khối hộp chữ nhật.

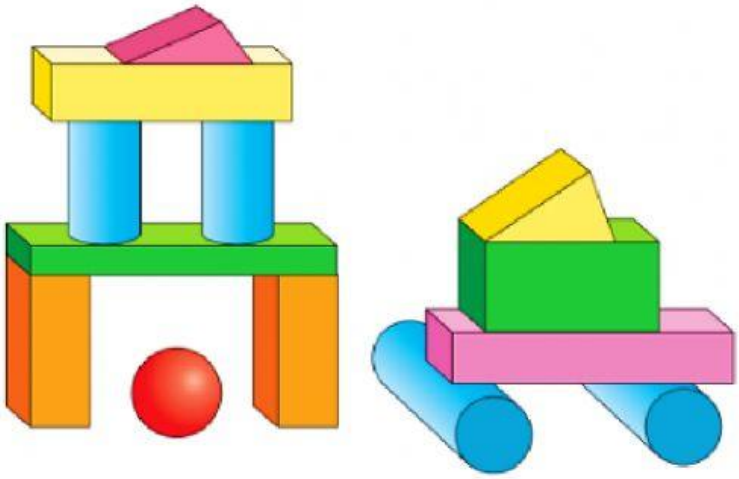

LIVEWORKSHEETS

luyện tập

2 Chọn hình thích hợp đặt vào vị trí trên cùng.

A.

B

C. 

D.

3 Chọn hình thích hợp đặt vào dấu "?".

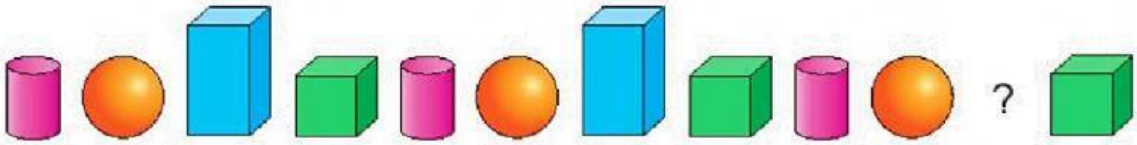

A.

B.

C.

D.

LIVEWORKSHEETS

Luyện tập

4 Đi theo các vật có dạng khối trụ hoặc khối cầu, cá ngựa sẽ đến lối ra nào?

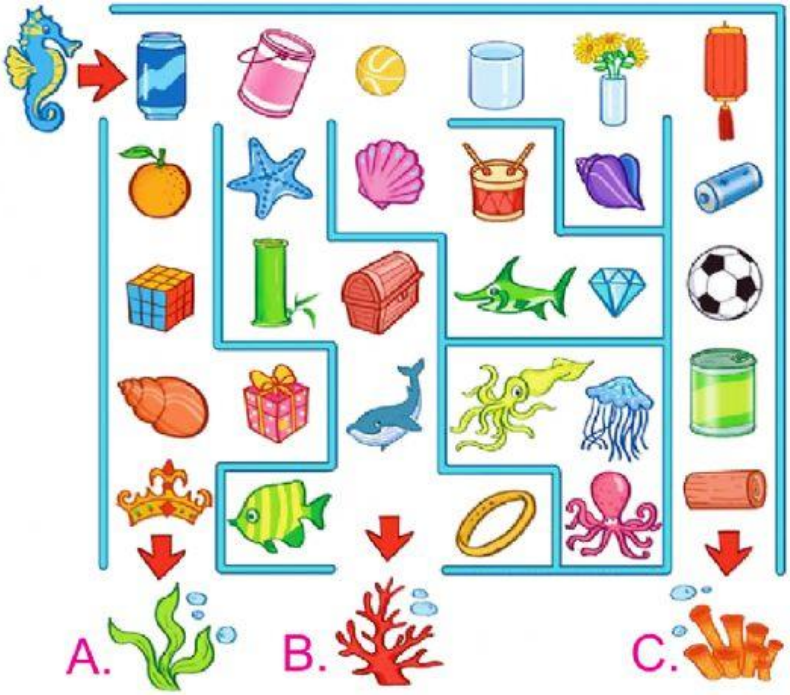

LIVEWORKSHEETS