แบบทดสอบวิชาวิทยาศาสตร์ ป.6 เรื่องสัญลักษณ์วงจรไฟฟ้า

ชื่อ.....ชั้นป.6/.....เลขที่.....

คำชี้แจง:ให้นักเรียนโยงเส้นจับคู่คำตอบให้ถูกต้อง

1. 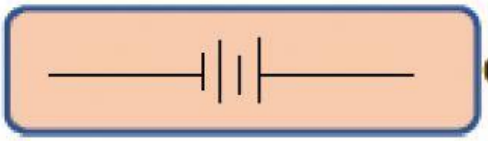
2. 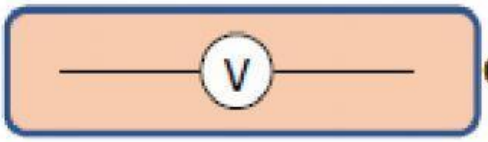

3. 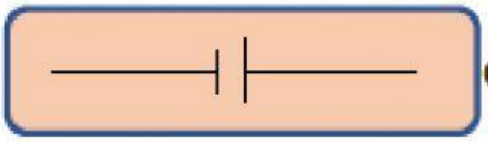
4. 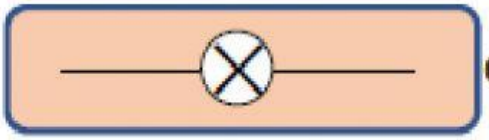
5.
6. 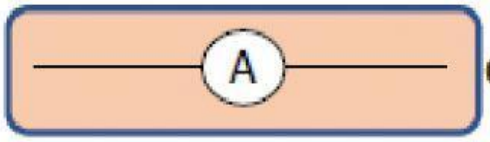

7. 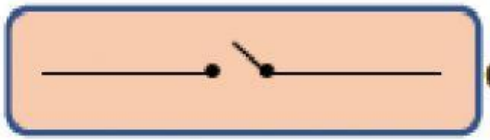
8.
9. 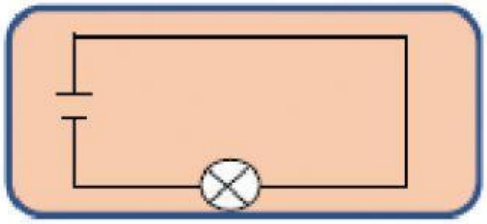
10. 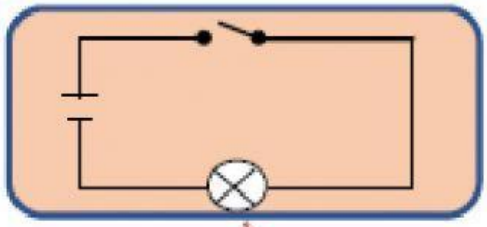

- เซลล์ไฟฟ้า
- แบตเตอรี่
- วงจรแบบปิด
- สายไฟฟ้า
- สวิตซ์ไฟฟ้า
- ตัวต้านทาน
- วงจรแบบเปิด
- แอมมิเตอร์
- โวลต์มิเตอร์
- หลอดไฟฟ้า

LIVEWORKSHEETS