EMASI VẠN PHÚC

nhà trường của thế hệ tiên phong

BÀI TẬP VỀ CHU VI HÌNH CHỮ NHẬT

I. Kiến thức cần nhớ

- Cách tính chu vi của hình chữ nhật:

Muốn tính chu vi hình chữ nhật ta lấy **chiều dài** **cộng với** **chiều rộng** **(cùng đơn vị đo)** **rồi nhân với 2**

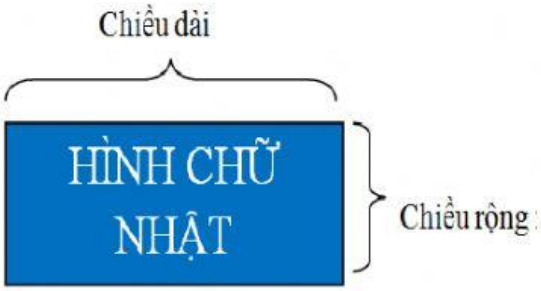

Chu vi hình hình chữ nhật = (chiều dài + chiều rộng) x 2 (cùng đơn vị đo)

II. Luyện tập

Điền vào ô trống:

Tính chu vi hình chữ nhật rồi viết kết quả vào ô trống:

Chiều dài hình chữ nhật	7cm	12cm	35dm	105m
Chiều rộng hình chữ nhật	5cm	8cm	27dm	75m
Chu vi hình chữ nhật				

***Dạng giải toán cơ bản:**

Bài 1: Một cái sân hình chữ nhật có chiều dài 130m, chiều rộng 70m. Tính chu vi cái sân hình chữ nhật đó.

Bài giải

Bài 2: Tính chu vi hình chữ nhật có chiều dài 5dm, chiều rộng 25cm.

Bài giải

LIVEWORKSHEETS

Dạng bài toán giải bằng 2 phép tính.

Bài 1: Một mảnh đất hình chữ nhật có chiều rộng bằng 134m, chiều dài hơn chiều rộng 72m. Tính chu vi mảnh đất hình chữ nhật đó.

Bài giải

Bài 2: Một mảnh đất hình chữ nhật có chiều rộng bằng 104m, chiều dài gấp đôi chiều rộng. Tính chu vi mảnh đất hình chữ nhật đó.

Bài giải

Bài 3: Một miếng bìa hình chữ nhật có chiều dài bằng 120cm, chiều rộng bằng $\frac{1}{3}$ chiều dài. Tính chu vi miếng bìa hình chữ nhật đó.

Bài giải

LIVEWORKSHEETS

EMASI VẠN PHÚC

nhà trường của thế hệ tiên phong

BÀI TẬP VỀ CHU VI HÌNH VUÔNG

- **Hình vuông:** Là hình có 4 góc vuông và 4 cạnh bằng nhau.

- **Chu vi hình vuông**: Muốn tính chu vi hình vuông ta lấy **độ dài một cạnh nhân với 4.**

Chu vi = Cạnh x 4

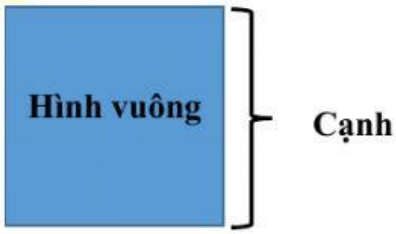

1. **Điền vào ô trống:**

Cạnh hình vuông	12cm	75dm	102m	204mm
Chu vi hình vuông				

2. Lan dùng một sợi dây kim tuyến quấn vừa đủ khung của một ô cửa hình vuông có độ dài cạnh là 34cm. Tính độ dài sợi dây kim tuyến đó.

Bài giải

3. Mỗi viên gạch hoa hình vuông có cạnh 20cm. Tính chu vi hình chữ nhật ghép bởi 5 viên gạch hoa như thế.(như hình vẽ)

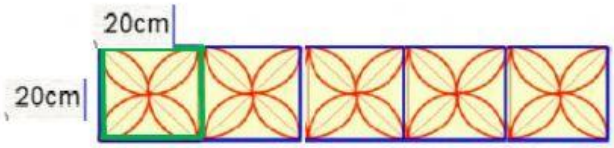

Bài giải

LIVEWORKSHEETS