Groupe Scolaire
Marie de France
Enseignement International

Soustraire des fractions

1 Trouve les nombres manquants.

a) $\frac{3}{4} - \frac{1}{2}$

$= \frac{3}{4} - \frac{2}{4}$

$= \frac{\square}{\square}$

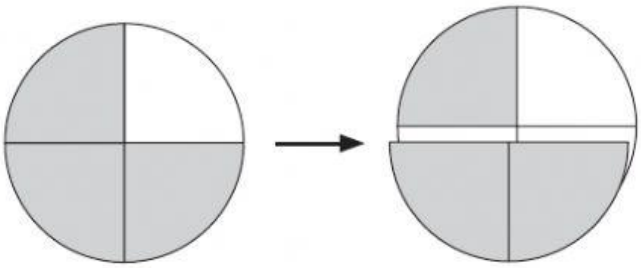

b) $\frac{5}{6} - \frac{2}{3}$

$= \frac{5}{6} - \frac{\square}{\square}$

$= \frac{\square}{\square}$

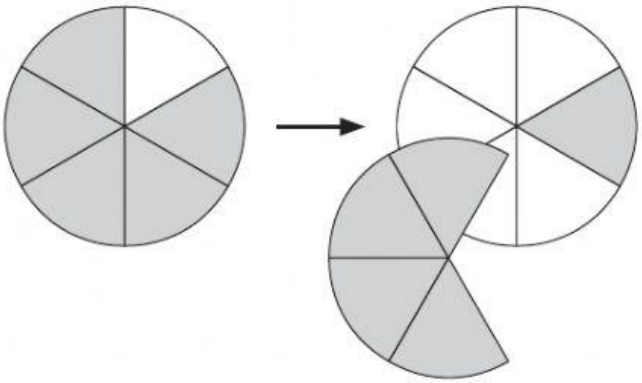

c) $\frac{2}{3} - \frac{1}{12}$

$= \frac{\square}{\square} - \frac{1}{12}$

$= \frac{\square}{\square}$

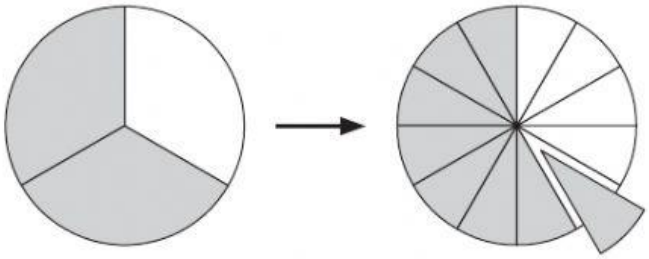

LIVEWORKSHEETS

2 Trouve le mot secret !

a) Soustrais. Exprime ta réponse sous sa forme réduite.

A $\frac{2}{3} - \frac{2}{9} = \frac{6}{9} - \frac{2}{9}$ $= \frac{4}{9}$	**E** $\frac{1}{2} - \frac{1}{6} =$	**N** $\frac{3}{4} - \frac{5}{8} =$
G $\frac{3}{4} - \frac{1}{12} =$ —	**R** $\frac{2}{5} - \frac{1}{10} =$ —	**L** $\frac{5}{6} - \frac{5}{12} =$ —
T $\frac{4}{5} - \frac{3}{10} =$ —	**E** $\frac{1}{2} - \frac{5}{12} =$ —	**C** $\frac{7}{12} - \frac{1}{3} =$ —

b) Reporte dans le tableau ci-dessous les lettres correspondant aux réponses. De quelle figure as-tu écrit le nom ?

				A				
$\frac{3}{10}$	$\frac{1}{3}$	$\frac{1}{4}$	$\frac{1}{2}$	$\frac{4}{9}$	$\frac{1}{8}$	$\frac{2}{3}$	$\frac{5}{12}$	$\frac{1}{12}$

LIVEWORKSHEETS