الاثنين	
الثلاثاء	
الاربعاء	
الخميس	
الجمعة	

١. ما عدد الزهور التي قُطِفَت يوم الإثنين؟ _____

٢. ما عدد الزهور التي قُطِفَت يوم الخميس؟ _____

٣. هل هناك يومان قُطف فيهما نفس العدد من الزهور؟ _____

٤. ما عدد الزهور التي قُطِفَت يومي الإثنين والثلاثاء؟ _____

٥. في أي يوم قُطِف أقل عدد من الزهور؟ _____

٦. في أي يوم قُطِف أكبر عدد من الزهور؟ _____

٧. كم يزيد عدد الزهور التي قُطِفَت يوم الثلاثاء عن يوم الأربعاء؟ _____

٨. كم عدد الزهور التي قُطِفَت يومي الإثنين والثلاثاء والأربعاء؟ _____

LIVEWORKSHEETS