Өткізгіштің кедергілері R1=3Ом,2 R2=2,5Ом R3=4,3Ом. Жалпы кедергіні тап.

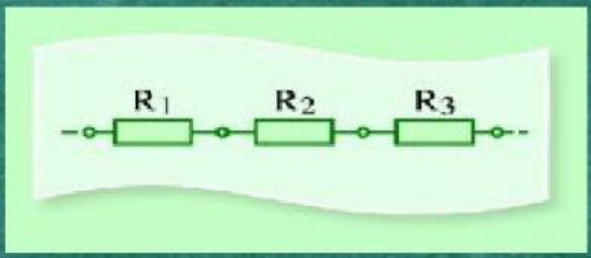

А!	**7Ом**
Б!	**13Ом**
В!	**9Ом**
С!	**10Ом**

LIVEWORKSHEETS

Өткізгіштің кедергілері R1=6Ом R2=3Ом R3=2Ом. Жалпы кедергіні тап.

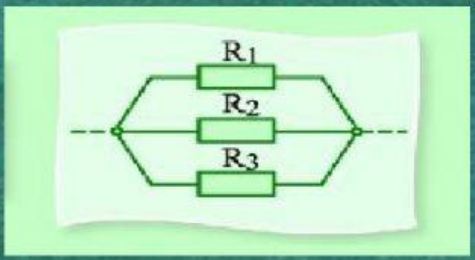

А!	3Ом
Б!	1Ом
В!	4Ом
С!	2Ом

LIVEWORKSHEETS

Өткізгіштің кедергілері R1=1Ом, R2=1Ом , R3=4Ом. Жалпы кедергіні тап.

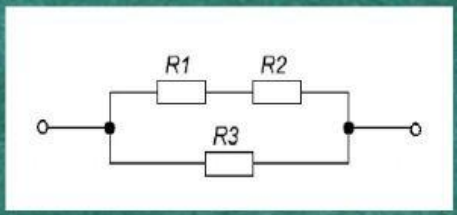

А!	4/3Ом
Б!	0,75Ом
В!	1/4Ом
С!	1/2Ом

LIVEWORKSHEETS

Өткізгіштің кедергілері R1=6Ом, R2=3Ом , R3=2Ом. Жалпы кедергіні тап.

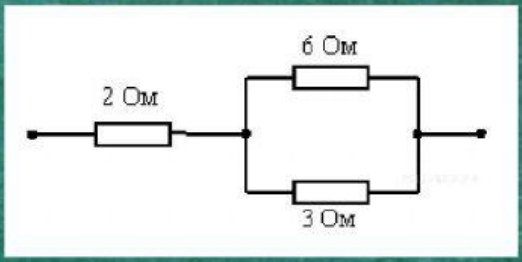

А!	**1Ом**
Б!	**5**Ом
В!	**4**Ом
С!	**3**Ом

LIVEWORKSHEETS