	السؤال الثاني: حدد العبارة الصحيحة والعبارة الخاطئة فيما يلي بالفراغ المناسب:	صح	خطا
١	في متوازي الأضلاع تكون كل زاويتين متقابلتين متكاملتان		
٢	مجموع قياسات الزوايا الخارجية لأي مضلع محدب = $360°$		
٣	إذا كان قياس الزاوية الداخلية لمضلع منتظم يساوي $150°$ فإن عدد أضلاعه 8		
٤	المستطيل كل أضلاعه الأربع متطابقة وزواياه قوائم		
٥	قطرا المعين متعامدان		
٦	المستطيل يكون دائما متوازي أضلاع		
٧	مجموع قياسات الزوايا الداخلية للسداسي = $360°$		
٨	قطر متوازي الأضلاع يقسمه إلى مثلثين متطابقين		

السؤال الثالث : اجب عن ثلاث فقرات من الفقرات الأربع التالية:

١/ اوجد قياس الزاوية الخارجية والداخلية لثماني منتظم

٢/ في متوازي الأضلاع الموضح $\angle ADB = 25$ $\angle CDB = 30$ احسب $\angle B$

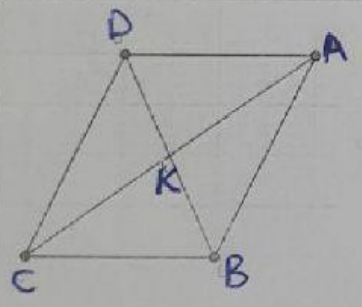

٣/ في المستطيل الموضح
DK=4X-3 و AK=X+9 احسب AC

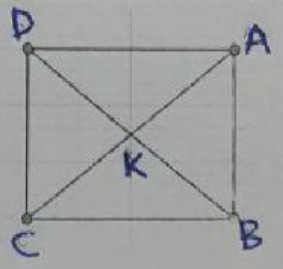

٤/ في المستطيل الموضح AB=5 و CB=8 فاحسب محيطه

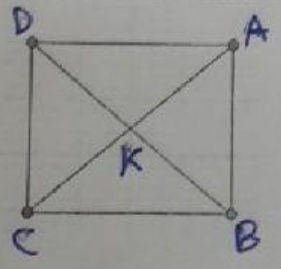

LIVEWORKSHEETS