الصف التاسع

تمارين على تطابق المثلثات - ورقة عمل رقم 3

المعيار : 9.7.2 : يعيّن المثلثات المتطابقة ، ويستعمل خصائص التطابق لإيجاد أطوال أضلاع وقياسات زوايا مجهولة .

9.7.3 : يثبت تطابق مثلثين ليولد مزيدًا من المعرفة والنظريات عن المثلثات بما فيها المثلثات المتداخلة .

في كل شكلٍ مما يلي اكتب المعلومات الإضافية اللازمة لتطابق المثلثين وفق النظرية المعطاة أعلى كل شكل :

HRL 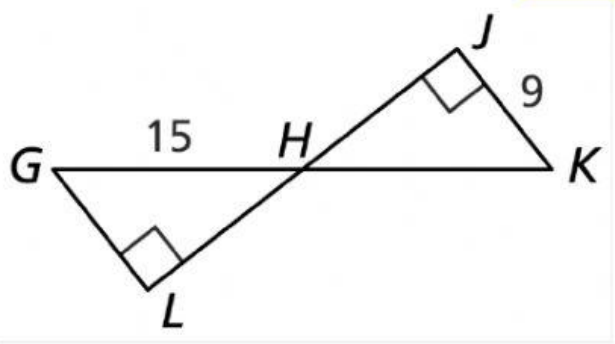	_____	1
HRL 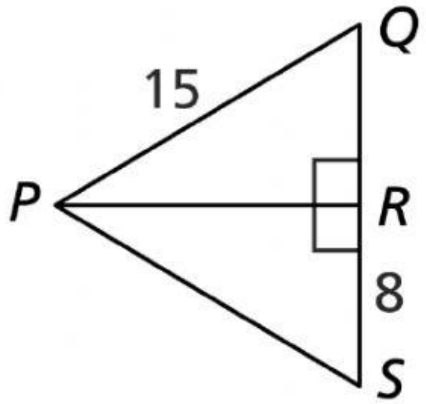	_____	2
SAS 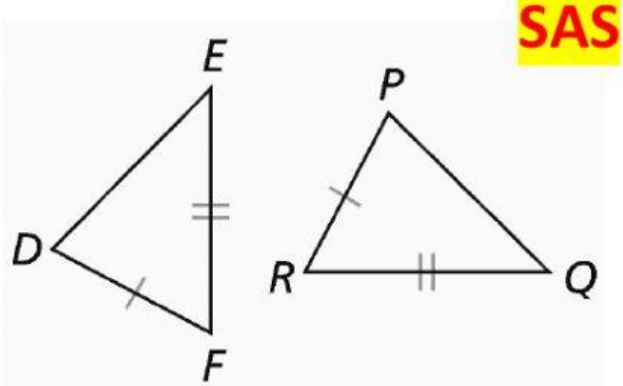	_____	3

LIVEWORKSHEETS