FIȘA DE LUCRU

Fracții

1. Scrie fracția corespunzătoare părții de pizza rămase în farfuria fiecărui copil:

DARIA **MARIA** **TEO** **IULIA** **BOGDAN**



___ ___ ___ ___ ___

2. Citește ceea ce spune fiecare copil. Unește numele fiecăruia cu desenul corespunzător.

3. Scrie fracțiile corespunzătoare bucăților de tartă din fiecare farfurie

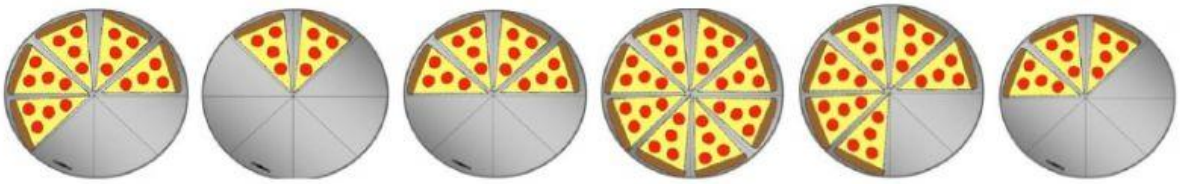

___ ___ ___ ___ ___ ___

LIVEWORKSHEETS

4. Notează în casete **A** pentru propozițiile adevărate și **F** pentru cele false.

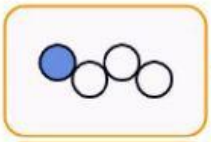

Fracția care reprezintă mărgelele colorate are numitorul 4. → ☐

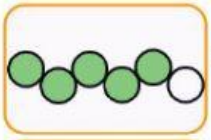

Fracția care reprezintă mărgelele colorate are numărătorul 6. → ☐

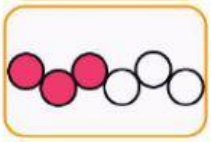

Numărătorul fracției care reprezintă mărgelele necolorate este egal cu numitorul. → ☐

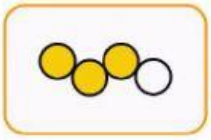

Numitorul fracției care reprezintă mărgelele necolorate este mai mare decât numărătorul fracției. → ☐

6. Completează casetele cu numere potrivite, astfel încât să fie adevărate egalitățile:



LIVEWORKSHEETS