Exercício Fixação - Volume de cubos e paralelepípedos retângulos - Prof. Hipácia

Lembre-se:
$1cm^3 \Rightarrow 1ml$
$1dm^3 \Rightarrow 1\ l$
$1m^3 \Rightarrow 1000\ l$

1. Se uma caixa d'água tem o formato de um cubo e capacidade de $125m^3$, qual a altura?

2. Uma piscina de 2 metros de profundidade, tem 4 metros de largura e capacidade de 80.000 litros. Qual o comprimento da piscina?

3. Um dado foi confeccionado com 343ml de ferro fundido. Qual a aresta do cubo em centímetros?

Ligue os correspondentes:

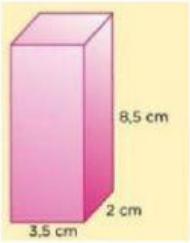

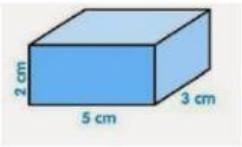


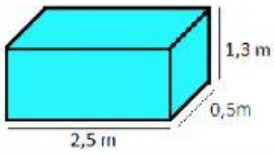


| |
|---|
| $0,00003\ m^3$ |
| 0,064litros |
| 59,5ml |
| 1625 litros |

**(VUNESP)** – Quantos cubos A precisa-se empilhar para formar o paralelepípedo B?

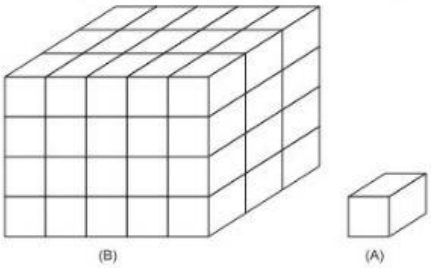


a) 39 b) 47 c) 48 d) 60 e) 94

LIVEWORKSHEETS