LEMBAR KERJA PESERTA DIDIK (LKPD)

BANGUN RUANG SISI DATAR
"KUBUS DAN BALOK

SMP KELAS VIII
SEMESTER GENAP

SMP NEGERI 13 DENPASAR

NAMA LENGKAP	:
KELAS	:
NO ABSEN	:

A. Perhatikan video di bawah ini agar kalian memahami materi bangun ruang kubus dan balok !

LIVEWORKSHEETS

B. Untuk mengecek pemahaman kalian coba kalian kerjakan aktivitas berikut !

1. Tentukan termasuk jenis apakah benda di bawah ini.

2. Tarik garis untuk menjodohkan pasangan jaring-jaring dan nama bangun yang sesuai di sebelah kanan jarring-jaring

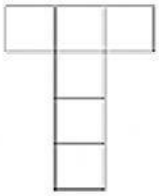

Balok

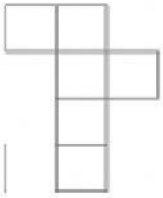

Kubus

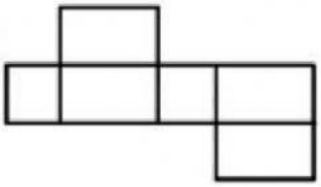

Kubus

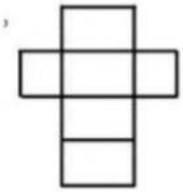

Balok

LIVEWORKSHEETS

C. Pasangkan gambar dengan rumus luas permukaan dan volume bangun yang sesuai !

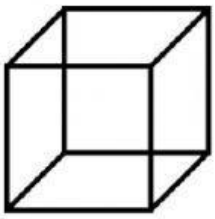

Luas Permukaan =

Volume =

Luas Permukaan =

Volume =

plt

$2(pl + lt + tp)$

$6s^2$

s^3

LIVEWORKSHEETS