ใบงานวิชาสังคมศึกษา ชั้นประถมศึกษาปีที่ 1

สาระที่ 5 ภูมิศาสตร์ (ส 5.1 ป.1/2) เรื่อง ความสัมพันธ์ของทิศต่าง ๆ รอบตัวเรา

ชื่อ_____นามสกุล_____ชั้น_____เลขที่_____

คำชี้แจง : ให้นักเรียนดูภาพแล้วตอบคำถามต่อไปนี้ให้ถูกต้อง โดยการระบายสีภาพสัตว์ที่เป็นคำตอบ



1. ถ้าไอติมและลูกตาลเดินไปทาง<u>ทิศเหนือ</u> ไอติมและลูกตาลจะพบสัตว์อะไร

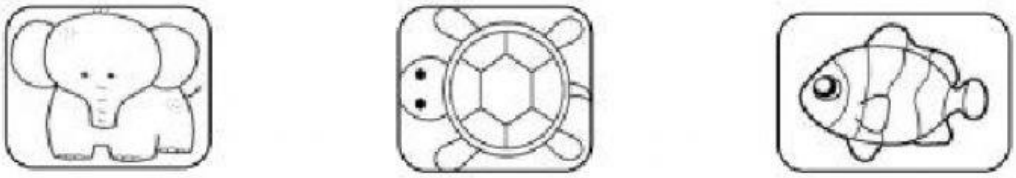

2. ถ้าไอติมและลูกตาลเดินไปทาง<u>ทิศใต้</u> ไอติมและลูกตาลจะพบสัตว์อะไร

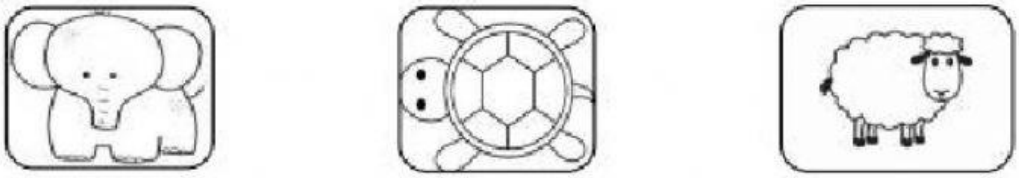

3. ถ้าไอติมและลูกตาลเดินไปทาง<u>ทิศตะวันออก</u> ไอติมและลูกตาลจะพบสัตว์อะไร

LIVEWORKSHEETS

ใบงานวิชาสังคมศึกษา ชั้นประถมศึกษาปีที่ 1

สาระที่ 5 ภูมิศาสตร์ (ส 5.1 ป.1/3) เรื่อง แผนผัง

ชื่อ_____นามสกุล_____ชั้น_____เลขที่_____

คำชี้แจง : ให้นักเรียนดูแผนผังที่กำหนดให้แล้วระบายสี ◯ หน้าคำตอบที่ถูกต้อง

1. **นักเรียนในห้องนี้มีทั้งหมดกี่คน**

   ◯ 15 คน ◯ 16 คน ◯ 17 คน

2. **ในห้องเรียนมีประตูและหน้าต่างรวมกันทั้งหมดกี่บาน**

   ◯ 3 บาน ◯ 4 บาน ◯ 5 บาน

3. **นักเรียนคนใดที่นั่งใกล้โต๊ะครู**

   ◯ ไอติม ◯ ปลาวาฬ ◯ ลูกตาล

4. **เมื่อเดินเข้าประตูด้านหลังห้องจะพบที่นั่งของใครก่อน**

   ◯ ลูกตาล ◯ ปลาวาฬ ◯ มะลิ

5. **นักเรียนคนใดที่นั่งใกล้หน้าต่าง**

   ◯ ภูผา ◯ การ์ตูน ◯ องุ่น

LIVEWORKSHEETS