เพจ : สอนคณิต
ออนไลน์

ชื่อ-นามสกุล..... ชั้น..... เลขที่.....

ใบงานที่ 8 เรื่อง การหาพื้นที่ของรูปสี่เหลี่ยม

คำชี้แจง ให้นักเรียนหาพื้นที่ของรูปสี่เหลี่ยมมุมฉากต่อไปนี้

กำหนดให้ หน่วยความยาวเป็น เซนติเมตร

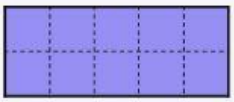

กว้าง.....ซม. ยาว.....ซม.
มีพื้นที่.....ตารางเซนติเมตร
หรือ.....ตร.ซม.

กว้าง.....ซม. ยาว.....ซม.
มีพื้นที่.....ตารางเซนติเมตร
หรือ.....ตร.ซม.



ความยาวด้านละ.....ซม.
มีพื้นที่.....ตารางเซนติเมตร
หรือ.....ตร.ซม.

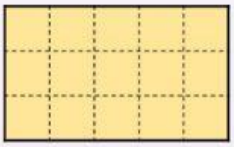

กว้าง.....ซม. ยาว.....ซม.
มีพื้นที่.....ตารางเซนติเมตร
หรือ.....ตร.ซม.



ความยาวด้านละ.....ซม.
มีพื้นที่.....ตารางเซนติเมตร
หรือ.....ตร.ซม.

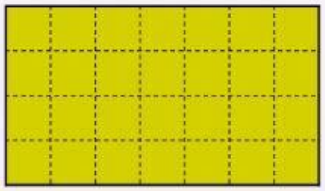

กว้าง.....ซม. ยาว.....ซม.
มีพื้นที่.....ตารางเซนติเมตร
หรือ.....ตร.ซม.

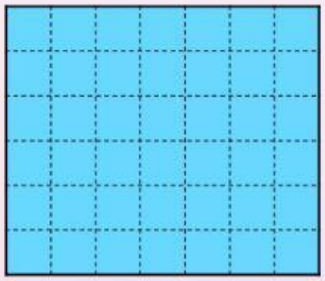

กว้าง.....ซม. ยาว.....ซม.
มีพื้นที่.....ตารางเซนติเมตร
หรือ.....ตร.ซม.



ความยาวด้านละ.....ซม.
มีพื้นที่.....ตารางเซนติเมตร
หรือ.....ตร.ซม.



กว้าง.....ซม. ยาว.....ซม.
มีพื้นที่.....ตารางเซนติเมตร
หรือ.....ตร.ซม.

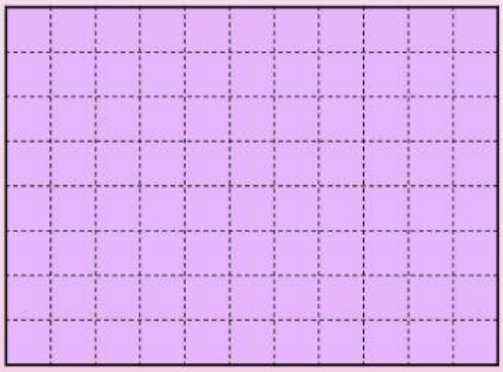

กว้าง.....ซม. ยาว.....ซม.
มีพื้นที่.....ตารางเซนติเมตร
หรือ.....ตร.ซม.

LIVEWORKSHEETS