1. Những hình nào có các cặp cạnh đối diện song song và bằng nhau?

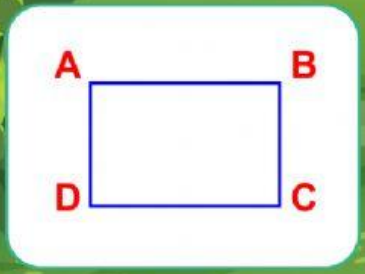

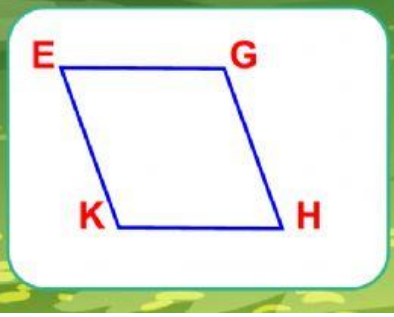

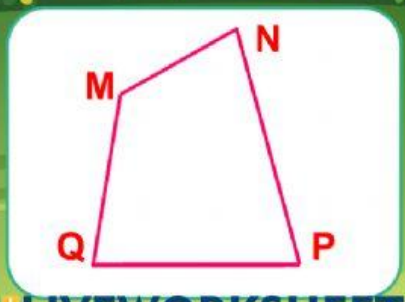

LIVEWORKSHEETS

Bài 2: Viết vào ô trống (theo mẫu)

Độ dài đáy	7cm	14dm	23m
Chiều cao	16cm	13dm	16m
Diện tích hình bình hành			

Muốn tính diện tích hình bình hành ta làm thế nào?

LIVEWORKSHEETS