1. Patyrinėk paveiksliuką. Įrašyk tinkamus ženklus < = > tarp trupmenų.

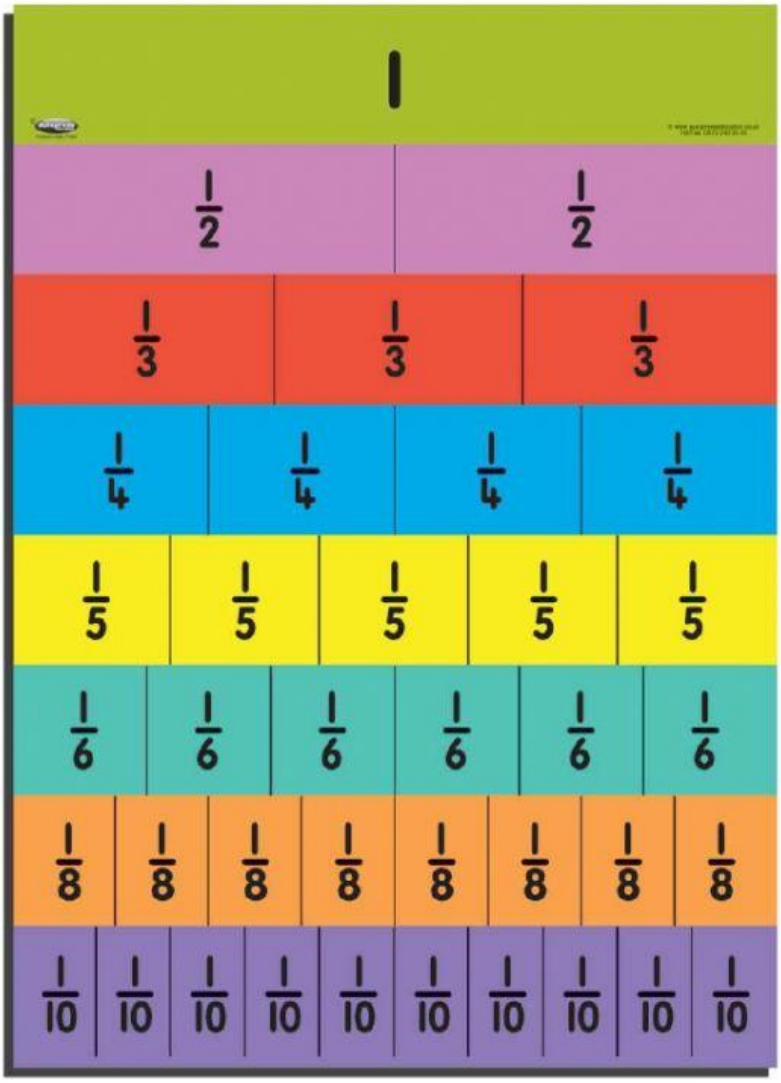

$\frac{1}{2}$ ◯ $\frac{1}{5}$

$\frac{2}{4}$ ◯ $\frac{1}{2}$

$\frac{4}{10}$ ◯ $\frac{2}{5}$

$\frac{2}{3}$ ◯ $\frac{4}{6}$

$\frac{3}{6}$ ◯ $\frac{4}{8}$

$\frac{5}{10}$ ◯ $\frac{3}{6}$

$\frac{3}{4}$ ◯ $\frac{4}{5}$

2. Parašyk kurią dalį vaisių vaikai suvalgė.



_____



_____



_____

LIVEWORKSHEETS

3. Apskaičiuok:

a) $\frac{1}{3}$ skaičiaus 60

b) $\frac{2}{3}$ skaičiaus 90

c) $\frac{4}{7}$ skaičiaus 140

d) $\frac{3}{5}$ skaičiaus 350

e) $\frac{5}{6}$ skaičiaus 360

f) $\frac{3}{8}$ skaičiaus 560

LIVEWORKSHEETS