TOÁN
ÔN TẬP
HÌNH HỌC VÀ ĐO LƯỜNG
LIVEWORKSHEETS

1 Số?

Ôn tập kiến thức

Đề-xi-mét là một đơn vị đo độ dài.
Đề-xi-mét viết tắt là dm

1 dm = ... cm 10 cm = ... dm

1 dm = ... cm

10 cm = ... dm

3 dm = ... cm

40 cm = ... dm

LIVEWORKSHEETS

2 cm hay dm?

Một đốt ngón tay của em dài 1 .....

Em của bạn Lan cao 10 .....

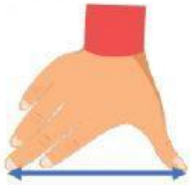

Một gang tay của mẹ dài 2 .....

Cây bút chì của em dài 10 .....

LIVEWORKSHEETS

3 Quan sát hình vẽ bên rồi điền vào chỗ trống.

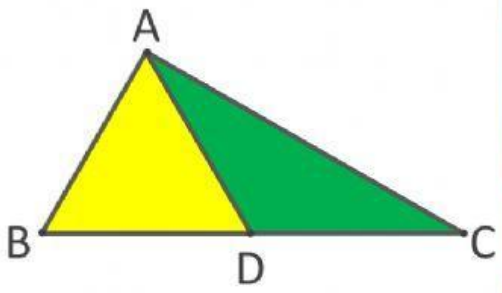

a. Đọc tên các điểm và các đoạn thẳng

- Các điểm: ….., ….., ….., …..
- Các đoạn thẳng: ……, ……., ……., ……., ……., …….

b. Đọc tên ba điểm thẳng hàng

……, ……, ……

LIVEWORKSHEETS

4 Quan sát hình vẽ

a. Đường thẳng, đường cong hay đường gấp khúc?

Đường màu đỏ là .....

Đường màu xanh dương là .....

Đường màu xanh lá là .....

LIVEWORKSHEETS

4 Quan sát hình vẽ

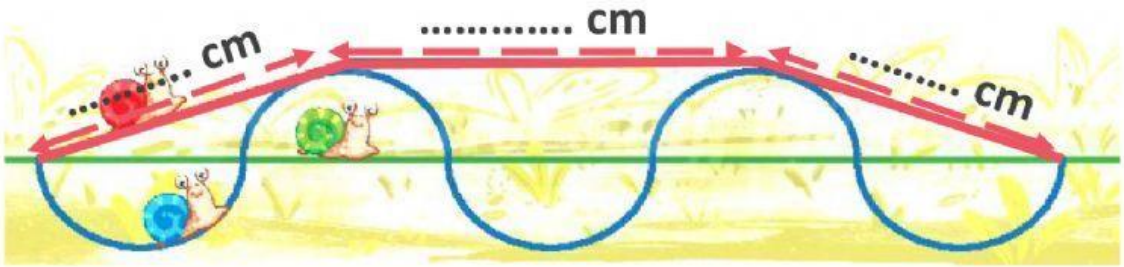

b. Đo trong SGK trang 125 rồi tính độ dài đường gấp khúc.

.... cm + ... cm + ... cm = ... cm

LIVEWORKSHEETS

5 Xem lịch rồi cho biết:

Tháng 11 có ..... ngày.

Có ..... ngày Chủ nhật.
Đó là các ngày: ....., ..., ..., ...

Ngày 20 tháng 11
là thứ .....

Tháng 11 **2021**

Thứ Hai	Thứ Ba	Thứ Tư	Thứ Năm	Thứ Sáu	Thứ Bảy	Chủ nhật
1	2	3	4	5	6	7
8	9	10	11	12	13	14
15	16	17	18	19	20	21
22	23	24	25	26	27	28
29	30					

LIVEWORKSHEETS