Họ và tên: _____ Lớp: 1A __

BÀI THỰC VẬT XUNG QUANH

1. Nối tên cây với hình ảnh tương ứng.

Cây bắp cải

Cây hoa sữa

Cây rau muống

Cây cà chua

2. Kéo thả tên các bộ phận của cây với vị trí tương ứng.



hoa

thân

lá

rễ

quả

LIVEWORKSHEETS

Họ và tên: _____ Lớp: 1A __

3. Đây là bộ phận nào của cây? Chọn đáp án đúng.



củ	quả

lá	hoa

củ	thân



hoa	quả

hoa	quả

thân	lá

LIVEWORKSHEETS