INTERNATIONAL SCHOOL
UK ACADEMY
LUCEAT LUX VESTRA

Họ và tên: …….....Lớp: …….

TOÁN 5 – LUYỆN TẬP – TRANG 88

Nhận xét của giáo viên:

THỰC HÀNH

Bài 1: Tính diện tích hình tam giác có độ dài đáy là a và chiều cao là h:

1. a = 30,5 dm và h = 12 dm.

Bài giải

2. a = 16 dm và h = 5,3 m.

Bài giải

LIVEWORKSHEETS

<u>Bài 2</u>: Hãy chỉ ra đáy và đường cao tương ứng đã có trong mỗi hình tam giác vuông dưới đây:

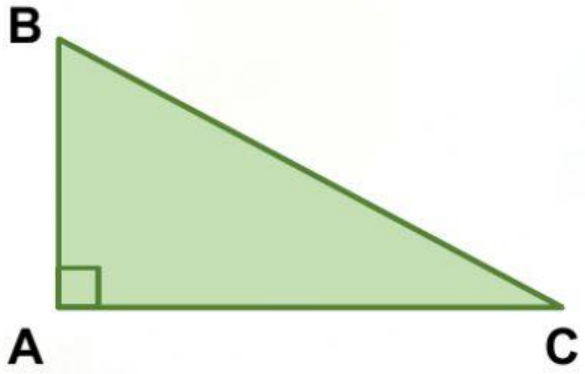

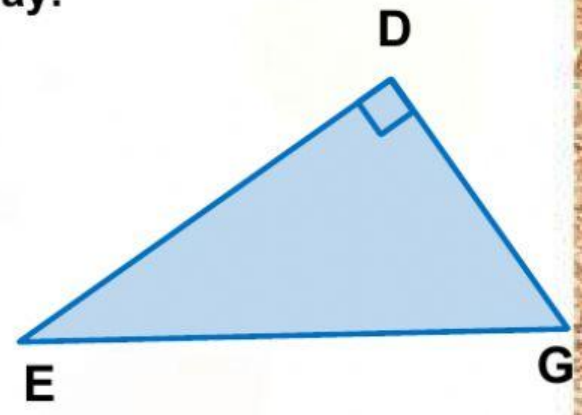

Tam giác vuông …… có:

Đường cao: ……

Độ dài đáy: …….

Tam giác vuông …… có:

Đường cao: ……

Độ dài đáy: …….

<u>Bài 3</u>: a. Tính diện tích hình tam giác vuông ABC.

<u>Bài giải</u>

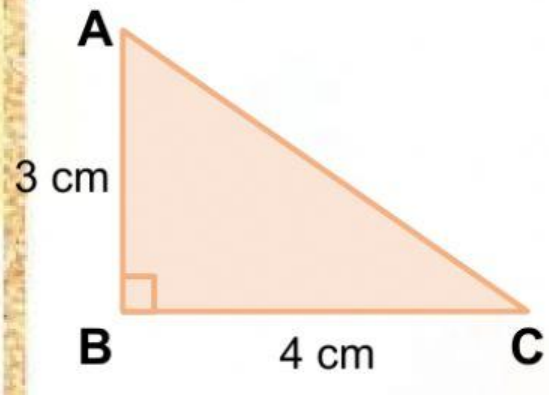

<u>Bài 3</u>: b. Tính diện tích hình tam giác vuông DEG.

<u>Bài giải</u>

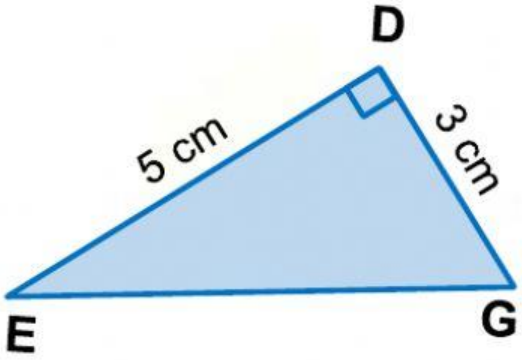

LIVEWORKSHEETS