Matemàtiques

L'ajuntament va plantar el dia dos d'abril 25 caixes de tulipes. Cada caixa contenia 20 tulipes. Després d'uns dies de sequera (no plou, per tant no tenen aigua), van morir 72 tulipes. Quantes en queden, encara?

Solució

Escriu l'operació que s'explica:

→ Multiplica 30 per la diferència de 20 i 5.

Solució

L'Ignasi vol posar una tanca al voltant d'un centre de flors circular de 2m de radi. Quina longitud tindrà la tanca?

Solució:

Els organitzadors d'un campionat volen posar una cinta roja a la copa que s'emportarà l'equip guanyador. Si la copa mesura 12 cm de radi, quants centímetres de cinta roja necessiten?

Solució:

LIVEWORKSHEETS

Les coordenades de tres dels vèrtexs d'un rectangle són:

A (+3,+2)

B (+3, -2)

C (-3, +2)

D

Representació de nombre mixt.

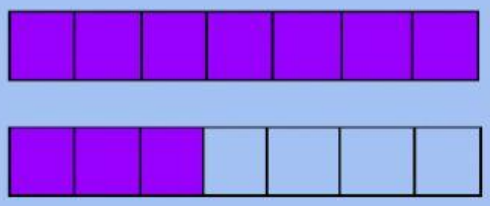

$1\frac{3}{7}$

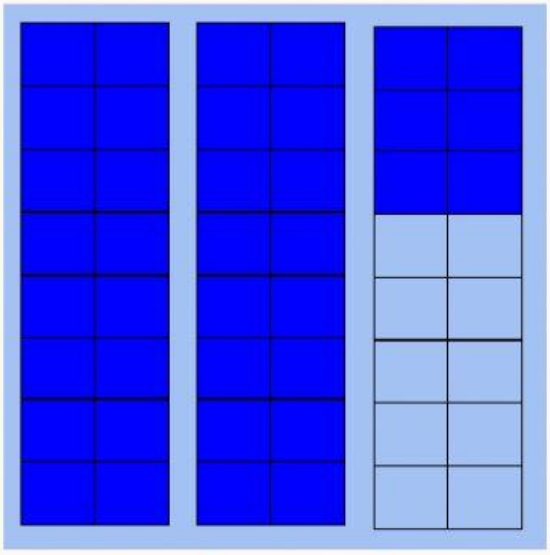

Solució

Calcula el preu final del jersei que té un descompte del 25%.

Solució

Continua la sèrie:

24 32 40

LIVEWORKSHEETS

La Sara i en Miquel col·leccionen cromos. La Sara té 160 cromos i en Miquel en té 250. Qui té més cromos repetits? Quants més?

Solució

Els alumnes de 6è A i 6è B han votat quin esport els hi agrada més. Quin percentatge de d'alumnes els hi agrada l'esquí?

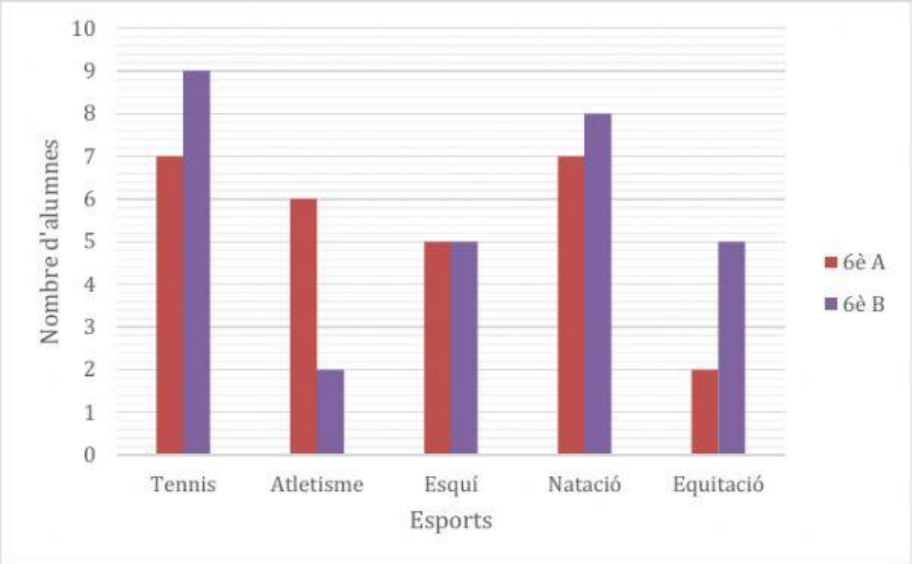

Percentatge esquí: 9% 30% 15% 18% 28%

Calcula l'àrea de les figures següents:

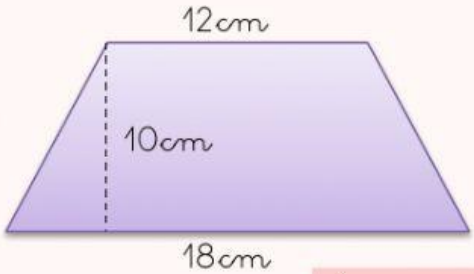

Àrea:

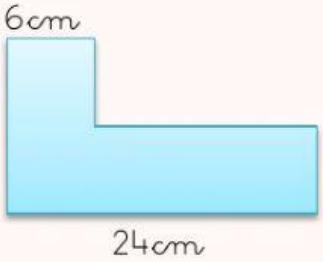

Àrea:

Àrea:

LIVEWORKSHEETS

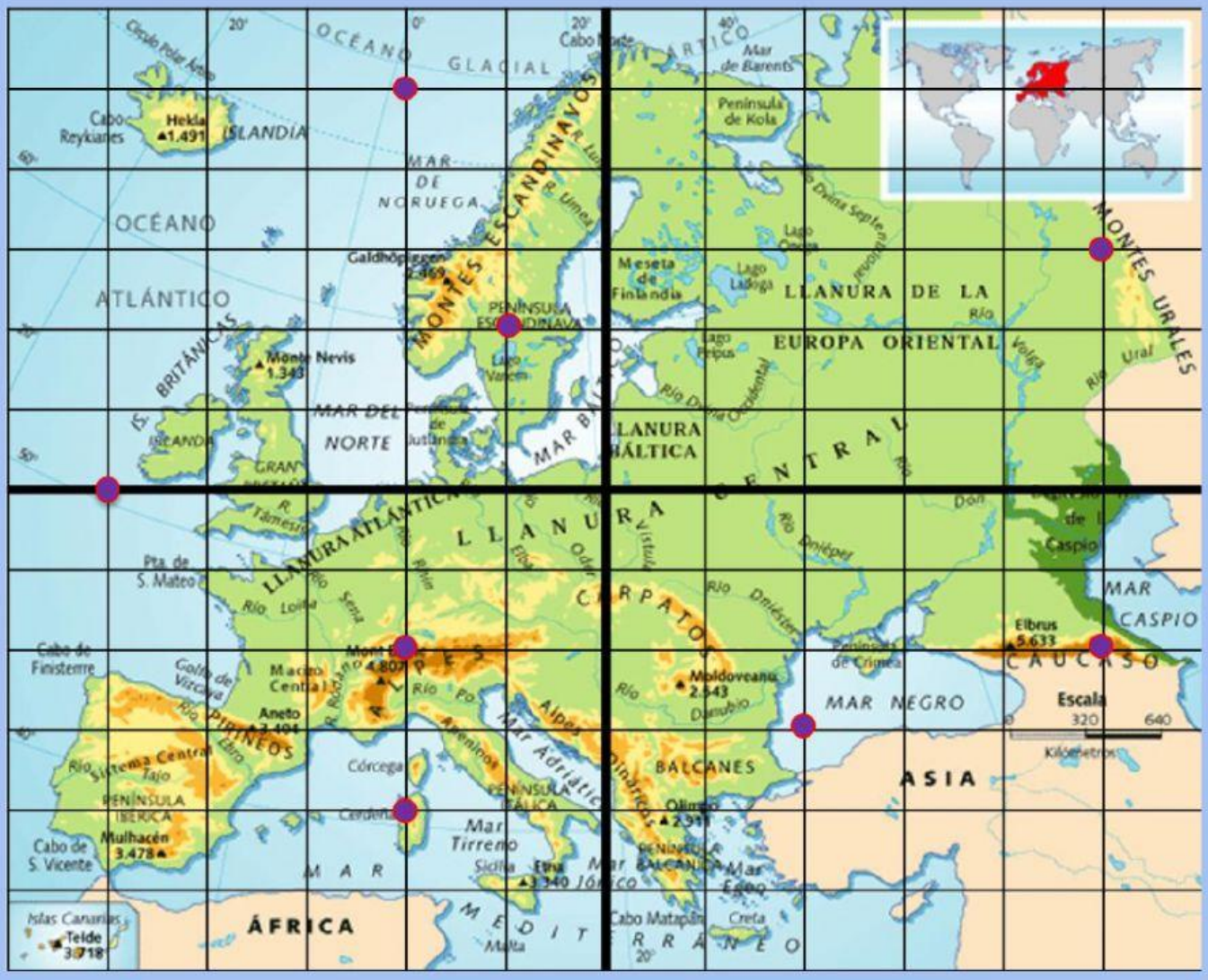

Escriu les coordenades.

Oceà glacial àrtic

Monts Urals

Mar Negre

Illa de Sardenya

Caucas

Alps

Península Escandinava

Oceà Atlàntic

LIVEWORKSHEETS