Họ tên: _____ Ngày 14 tháng 1 năm 2022

CÙNG EM HỌC TOÁN

Hình khối quanh em

1 Tích vào đồ vật có dạng khối lập phương:

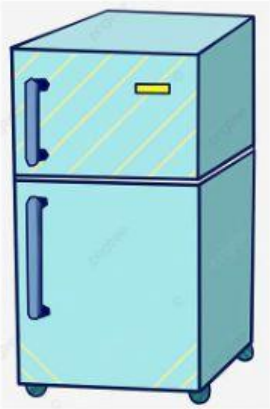

2 Có bao nhiêu khối hộp chữ nhật và khối lập phương?

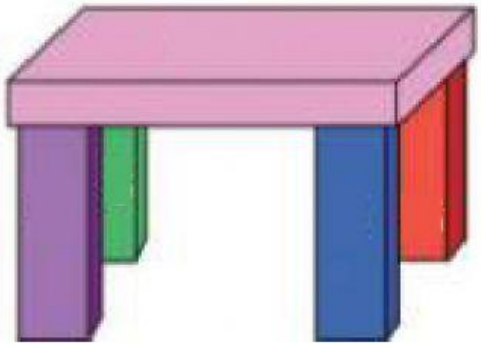
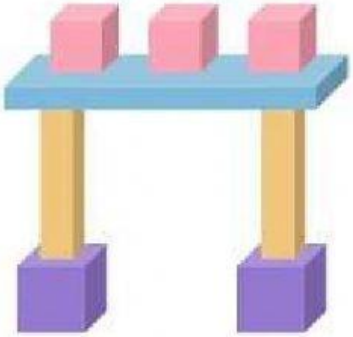

= _____

= _____

 = _____

3 Tìm quy luật và chọn hình đúng kéo vào vào chỗ trống:

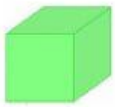




_____

LIVEWORKSHEETS