แบบฝึกหัด 5.3

เติมชื่อจุด แขนของมุม ชื่อมุม และสัญลักษณ์แทนมุม

ตัวอย่าง

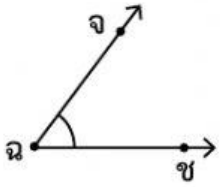

จุด.....ฉ.....เป็นจุดยอดมุม

.....$\overrightarrow{ฉจ}$.....และ.....$\overrightarrow{ฉช}$.....เป็นแขนของมุม

เรียกว่ามุม.....จฉช..... เขียนแทนด้วยสัญลักษณ์.....จ$\hat{ฉ}$ช.....

1.

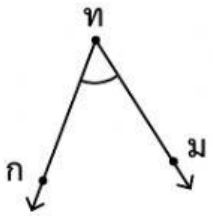

จุด.....เป็นจุดยอดมุม

.....$\rightarrow$.....และ.....$\rightarrow$.....เป็นแขนของมุม

เรียกว่ามุม.....

2.

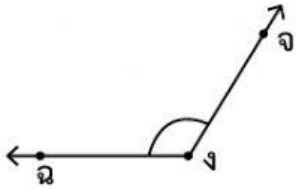

จุด.....เป็นจุดยอดมุม

.....$\rightarrow$.....และ.....$\rightarrow$.....เป็นแขนของมุม

เรียกว่ามุม.....

6118027D_P4_N5(Student).indd 7
LIVEWORKSHEETS

3.

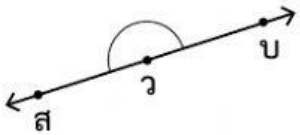

จุด.....เป็นจุดยอดมุม

$\overrightarrow{\quad}$ .....และ $\overrightarrow{\quad}$ .....เป็นแขนของมุม

เรียกว่ามุม.....

4.

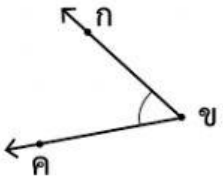

จุด.....เป็นจุดยอดมุม

$\overrightarrow{\quad}$ .....และ $\overrightarrow{\quad}$ .....เป็นแขนของมุม

เรียกว่ามุม.....

5.

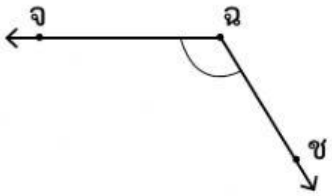

จุด.....เป็นจุดยอดมุม

$\overrightarrow{\quad}$ .....และ $\overrightarrow{\quad}$ .....เป็นแขนของมม

เรียกว่ามุม.....

6118027D_P4_N5(Student).indd 8 11/13/18 3:07 PM
LIVEWORKSHEETS