# Tugas PJJ Matematika

Kamis 13 Januari 2022

## KELAS 4C
## SDN 123 BABAKAN PRIANGAN

**NAMA :**

**Pilihlah jawaban yang benar !**

1. Segi banyak yang semua sisinya sama panjang dan sudutnya sama besar disebut

   a. Segi banyak

   b. Bukan segi banyak

   c. Segi banyak beraturan

   d. segi banyak tidak beraturan

2. Bangun berikut yang merupakan segi banyak beraturan adalah ... .

   a. Persegi Z

   b. Jajargenjang

   c. Belah ketupat

   d. Persegi panjang

3. Gambar berikut yang merupakan segi empat beraturan adalah ...

   a. 

   b.

   c.

   d.

LIVEWORKSHEETS

4. Berikut ini *bukan* merupakan cirri – cirri segi banyak beraturan adalah ...

a. Semua sudutnya sama besar

b. Semua sisinya sama Panjang

c. Ada sisi yang tidak sama Panjang

d. Semua sisinya sama panjang dan sudutnya sama besar

5. Gambar berikut yang merupakan segi banyak beraturan adalah ...

a. 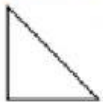

b. 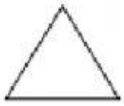

c.

d. 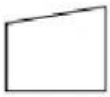

6. Berikut yang merupakan segi banyak tidak beraturan adalah ...

a.

b. 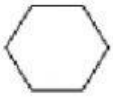

c.

d. 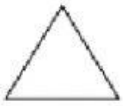

7. Bangun datar berikut yang merupakan segi banyak tidak beraturan adalah ...

a. Persegi

b. Segitiga sama sisi

c. Segitiga sama kaki

d. Segi enam beraturan



LIVEWORKSHEETS

8. Banyak sudut yang dimiliki segi delapan beraturan adalah ...
   a. 7
   b. 8
   c. 9
   d. 10

9. Belah ketupat termasuk segi banyak tidak beraturan, karena ...
   a. Sisinya sama Panjang
   b. Sudutnya sama besar
   c. Sisinya tidak sama Panjang
   d. Sudut yang tidak sama besar

10. Nama segi banyak beraturan yang memiliki 3 sudut adalah segitiga ...
   a. Siku – siku
   b. Sembarang
   c. Sama sisi
   d. Sama kaki

LIVEWORKSHEETS