PENDIDIKAN SENI VISUAL
TINGKATAN 3 KSSM

TAJUK 10 : SENI REKA GRAFIK (TIPOGRAFI)

1	Maklumat di bawah menerangkan tentang Seni Reka Grafik . **Seni memilih dan menggubah taip untuk mencapai maksud tertentu** Apakah bidang Seni Reka Grafik yang dimaksudkan ? A Animasi B Tipografi C Ilustrasi D Multimedia
2	Berdasarkan gambar rajah di bawah, apakah perubahan fungsi tipografi ? A Dari muka taip menjadi grafiti B Dari tipografi menjadi seni visual C Dari fungsi komunikasi menjadi personafikasi D Dari fungsi komunikasi menjadi ekspresi seni
3	Pilih antara berikut muka taip yang boleh dikaitkan dengan kaligrafi .  A B C D
4	Senaraikan antara bidang Seni Visual yang mengaplikasikan **tipografi**. A Grafiti, catan dan poster B Poster, lukisan dan ilustrasi C Ilustrasi, grafiti dan animasi D Poster, grafiti dan papan tanda

LIVEWORKSHEETS

5 Berdasarkan gambar rajah di bawah, apakah nama aplikasi tipografi tersebut ?

A Grafiti
B Emoticons
C Papan tanda
D Onomatopoeia

Soalan 6 dan 7 merujuk kepada gambar rajah di bawah .



6 Apakah nama aplikasi tipografi di atas ?

A Grafiti
B Animasi
C *Emoticons*
D Figura Grafik

7 Bagaimanakah grafik tersebut berfungsi

A Figura grafik dalam animasi
B Watak lucu dalam multimedia
C Grafik wajah untuk pengenalan diri
D Visual ekspresi wajah dalam dunia siber

8 Bagaimana untuk memanfaatkan ruang yang luas di dinding bangunan awam ?

A Menghasilkan grafiti
B Menampal cetakan poster
C Melukis simbol perniagaan
D Meletakkan pelbagai papan tanda

9 Mengapakah papan tanda seperti di bawah mudah menarik perhatian pengguna ?

I Kontra warna
II Rupa geometri
III Warna harmoni
IV Nilai keterbacaan

A I dan II
B I dan IV
C II dan III
D III dan IV

LIVEWORKSHEETS

10 Gambar rajah di bawah menunjukkan satu jenis klasifikasi taip .



Apakah jenis klasifikasi taip tersebut ?

A *Script*
B Old Style
C Slab Serif
D Sans Serif

11 Antara berikut pilih ***emoticons*** yang dapat menunjukkan ekspresi terkejut .

A

B

C



D

12 Gambar rajah di bawah menunjukkan satu Tipografi Ekspresi .
Apakah nama bagi tipografi ekspresi tersebut ?

A Figura Taip
B Konotasi Taip
C Onomatopoeia
D Personifikasi Taip

13 Gambar rajah di bawah menunjukkan sebuah Poster Kemerdekaan .
Antara berkut pilih muka taip *script* dari poster tersebut .

LIVEWORKSHEETS

14	Pilih antara berikut yang dikategorikan sebagai tipografi ekspresi . I Grafiti II *Emoticons* III Konotasi taip IV Personifikasi taip A I dan II B I dan IV C II dan III D III dan IV
15	Berdasarkan huruf di bawah, pilih huruf yang merupakan huruf **Serif** .  A B C D
16	Antara berikut manakah tipografi yang sering digunakan dalam sebuah komik . A Figura Taip B Konotasi Taip C Onomatopoeia D Personifikasi Taip
17	Penggunaan pen seperti gambar di bawah sesuai bagi menghasilkan tipografi _____. A Modern B Script C Slab Serif D Sans Serif
18	Jika anda berbakat dalam menggabungkan pelbagai jenis huruf hingga menghasilkan watak manusia atau binatang, ia tergolong dalam _____. A Figura Taip B Konotasi Taip C Onomatopoeia D Personifikasi Taip

LIVEWORKSHEETS

19	Apakah karya tipografi yang paling sesuai dihasilkan jika menggunakan media di bawah ? A Grafiti B Emoticons C Figura Taip D Konotasi Taip
20	Perkataan dibawah dapat menggambarkan emosi dalam sesuatu situasi . Apakah nama bagi tipografi tersebut ? A Figura Taip B Konotasi Taip C Onomatopoeia D Personifikasi Taip

LIVEWORKSHEETS