Elementary Olifant
Unity in Diversity

Worksheet – Matematika

Hubungan Antargaris

Nama : _____ **Kelas** : _____

1. Berikan tanda (V) pada gambar yang merupakan garis lurus dan tanda (X) pada garis yang tidak lurus!

a. 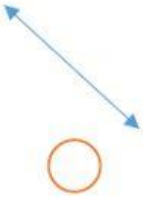

b. 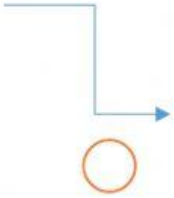

c.

d.

2. Tentukan nama garis berikut!

a.

b.

c.

3. Berilah tanda (V) pada garis yang sejajar dan tanda (X) pada garis yang tidak sejajar!

a.

c.

b.

d. 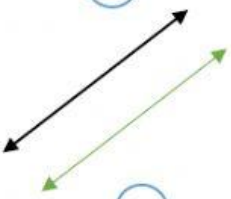

4. Tuliskan semua garis yang sejajar dengan garis *RS* pada gambar berikut!

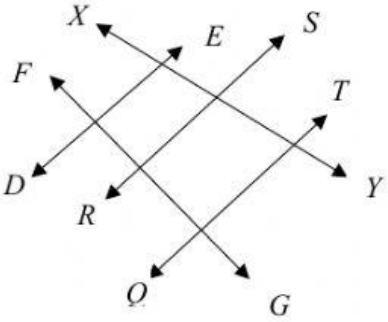

LIVEWORKSHEETS

5. Berilah tanda (V) pada gambar yang merupakan garis berpotongan dan tanda (X) untuk garis yang tidak berpotongan!

a.

b.

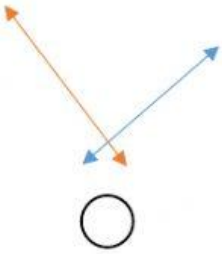

c.

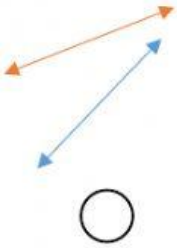

d.

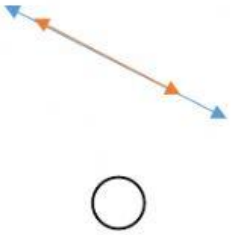

6. Tuliskan semua garis yang berpotongan dengan *FG* pada gambar berikut!

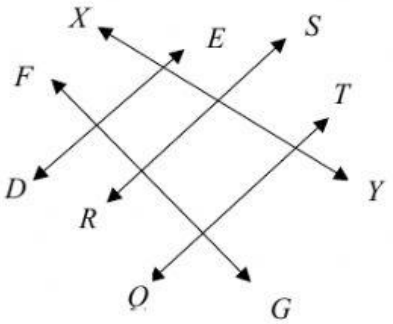

LIVEWORKSHEETS