PROBLEMES.

1.- Tere té 754 cromos i el seu germà Ismael li amaga 345 cromos. Quants cromos té ara Tere?

Dates **Operació**

Tere té ..... cromos

Ismael li amaga ..... Cromos

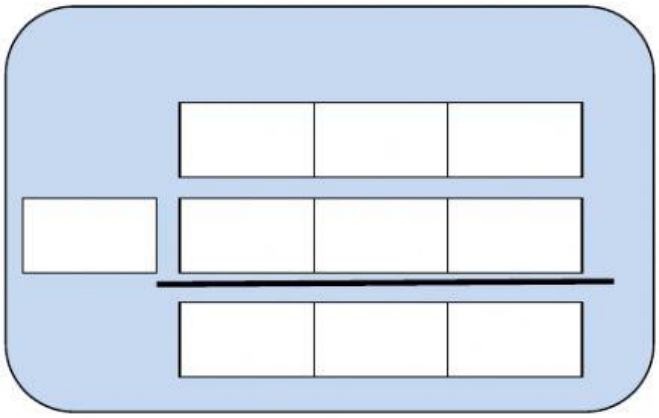

Solució: .....

2.- Tres germans tenen les següents joguets. Toni 138 cotxes, Claudia 327 unicorns i Miguel 59 puzles. Quants joguets tenen entre els tres?

Dates **Operació**

Toni té ..... cotxes

Claudia té ..... unicorns

Miguel té ..... puzles

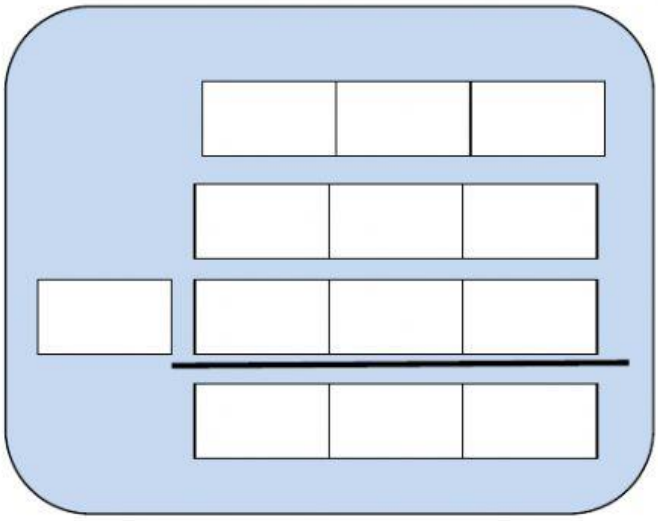

Solució: .....

3.- Mar té 6 safates amb 206 pinyes en cada safata. Quantes pinyes té Mar?

Dates **Operació**

Mar té …… safates

…… Pinyes en cada safata.

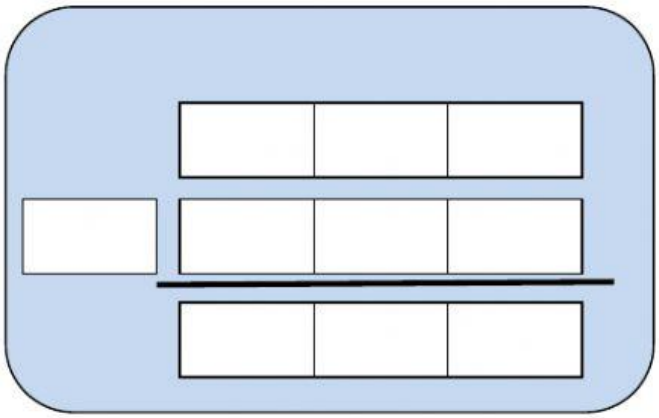

Solució: ……

4.- Júlia ha recollit 876 flors i Valeria 789. Quantes flors ha recollit Júlia més que Valeria.

Dates **Operació**

Júlia ha recollit ..... flors.

Valeria ha recollit ..... flors.
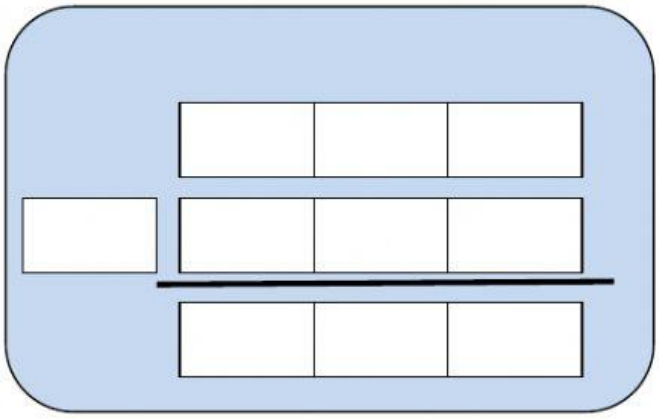
Solució: ……