SIMAKLAH VIDEO DI BAWAH INI!

JAWABLAH PERTANYAAN DI BAWAH INI DENGAN MENULISKAN JAWABAN SAJA BERUPA ANGKA TANPA MENYERTAI HURUF ATAU TANDA BACA TITIK!

1. Luas permukaan bangun di bawah ini adalah …… cm^2

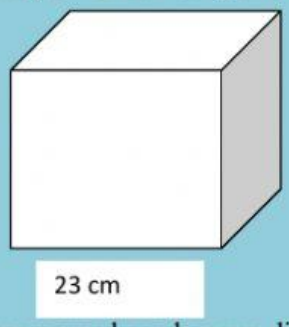

2. Luas permukaan bangun di bawah ini adalah …… cm^2

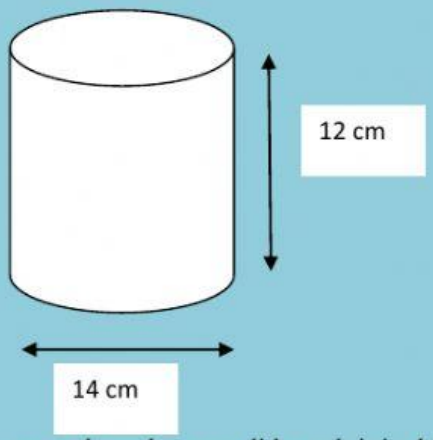

3. Luas permukaan bangun di bawah ini adalah …… cm^2

LIVEWORKSHEETS

4. Luas permukaan bangun di bawah ini adalah …….. cm^2

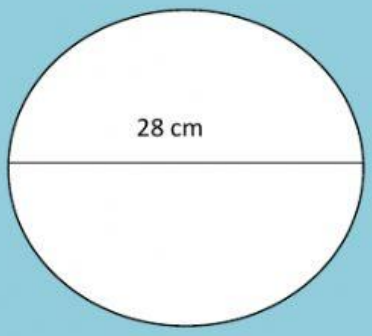

5. Luas permukaan bangun di bawah ini adalah …….. cm^2

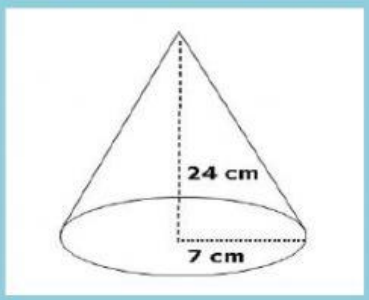

LIVEWORKSHEETS