BILANGAN PECAHAN

Nama :

Kelas :

Tujuan Pembelajaran :

1. Melalui Kegiatan menuliskan bilangan pecahan yang sesuai gambar, siswa dapat mengerti bilangan pecahan.
2. Melalui kegiatan menghubungkan angka, gambar dan kata siswa dapat memahami bentuk bilangan pecahan.
3. Melalui kegiatan mengubah bentuk pecahan , siswa dapat memahami bentuk bentuk bilangan pecahan.

Petunjuk :

1. Isi nama dan kelas
2. Bacalah petunjuk penggunaan LKPD dengan cermat
3. Bacalah perintah yang ada dalam setiap aktivitas dengan cermat
4. Kerjakan setiap aktivitas pada LKPD sesuai dengan petunjuk
5. Jika mengalami kesulitan dalam mempelajari LKPD, maka tanyakan pada guru dengan tetap berusaha dengan maksimal terlebih dahulu

LIVEWORKSHEETS

Aktivitas 1

PERHATIKAN VIDEO DIBAWAH INI!

Setelah menyaksikan video diatas, tuliskan pengertian bilangan pecahan dalam kotak yang telah disediakan!

LIVEWORKSHEETS

Aktivitas 2

Perhatikan gambar pecahan di bawah ini! Tuliskan nilai pecahan yang tepat sesuai gambar yang ada!

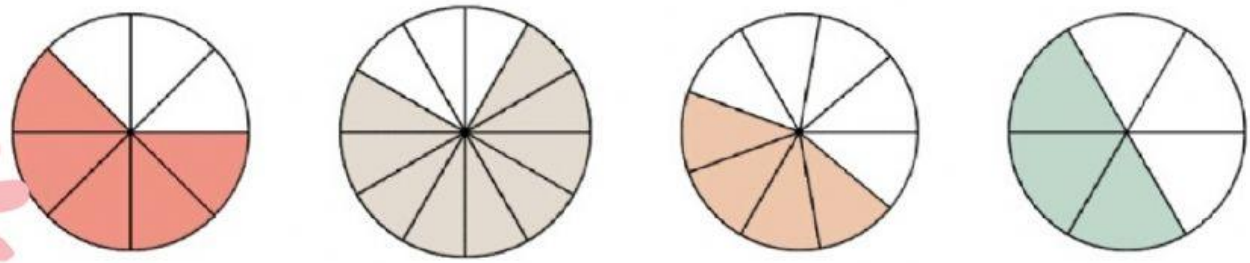

$\frac{\quad}{\quad}$ $\frac{\quad}{\quad}$ $\frac{\quad}{\quad}$ $\frac{\quad}{\quad}$

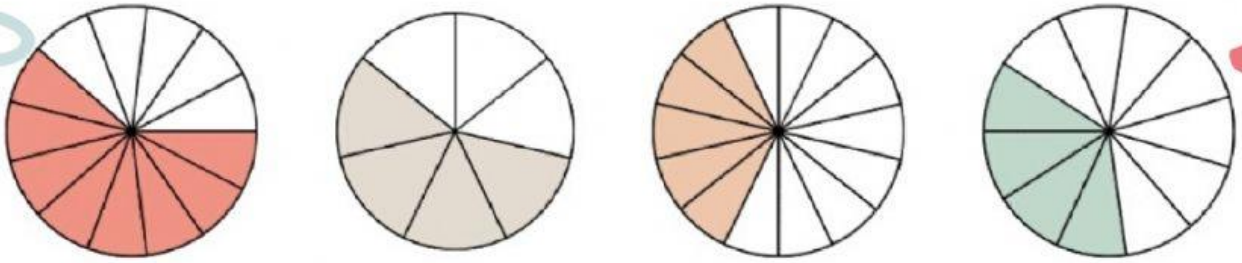

$\frac{\quad}{\quad}$ $\frac{\quad}{\quad}$ $\frac{\quad}{\quad}$ $\frac{\quad}{\quad}$

LIVEWORKSHEETS

Aktivitas 3

Bacalah teks dibawah ini

Tariklah garis untuk menghubungkan kata, bilangan, dan bentuk gambar dari setiap pecahan!

Empat per lima	$\frac{3}{5}$	
Dua per lima	$\frac{2}{3}$	
Satu per dua	$\frac{1}{3}$	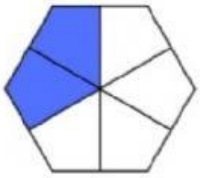
Tiga per lima	$\frac{4}{5}$	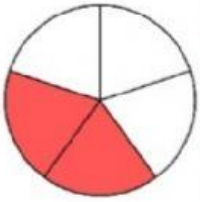
Dua per tiga	$\frac{2}{5}$	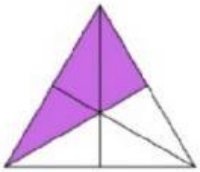
Satu per tiga	$\frac{1}{2}$	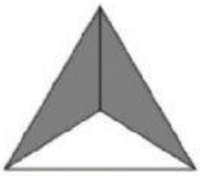

LIVEWORKSHEETS

Aktivitas 4

Megubah bentuk pecahan !
(Pecahan Biasa, Pecahan Campuran dan Pecahan Desimal)

uliskan bentuk pecahan ampuran dari pecahan berikut !	Tuliskan bentuk pecahan biasa dari pecahan campuran berikut !	Tuliskan cara membaca pecahan desimal berikut !
$\frac{5}{2} = \square\frac{\square}{\square}$	$1\frac{4}{5} = \frac{\square}{\square}$	0,2 =
$\frac{4}{3} = \square\frac{\square}{\square}$	$1\frac{3}{7} = \frac{\square}{\square}$	0,05 =
$\frac{8}{5} = \square\frac{\square}{\square}$	$2\frac{2}{5} = \frac{\square}{\square}$	0,35 =
$\frac{10}{9} = \square\frac{\square}{\square}$	$2\frac{7}{8} = \frac{\square}{\square}$	0,142 =
$\frac{11}{4} = \square\frac{\square}{\square}$	$3\frac{1}{8} = \frac{\square}{\square}$	0,084 =

LIVEWORKSHEETS

Aktivitas 5

Tuliskan sisa pizza dalam Bentuk pecahan dalam kotak yang telah disediakan !



LIVEWORKSHEETS

Aktivitas 6

Perhatikan masing-masing gambar di bawah ini, dan tentukan apakah gambar tersebut satu utuh, tiga perempat, atau setengah. Letakkan angk di kolom yang benar di bagian bawah gambar.

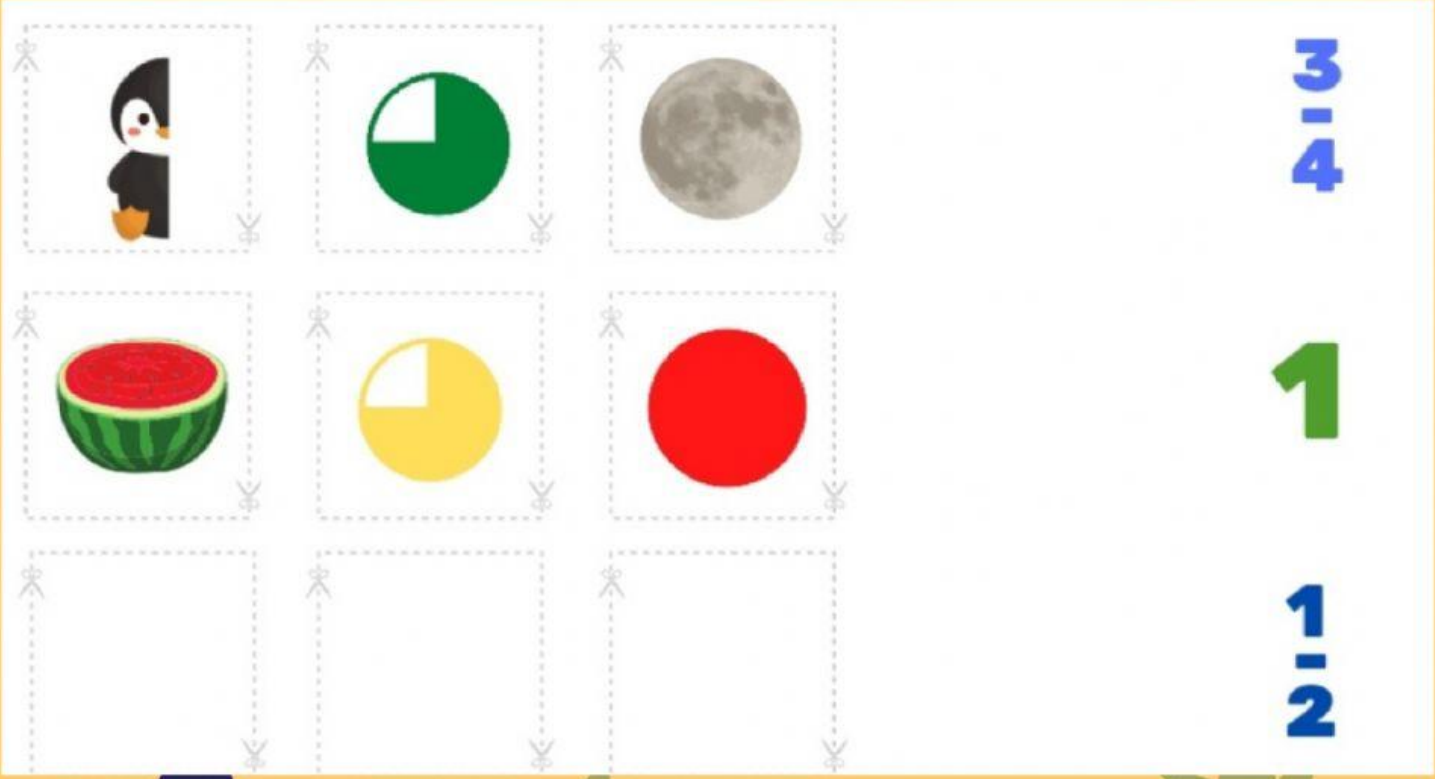

LIVEWORKSHEETS

Aktivitas 7

Lengkapi bagian pecahan yang hilang!

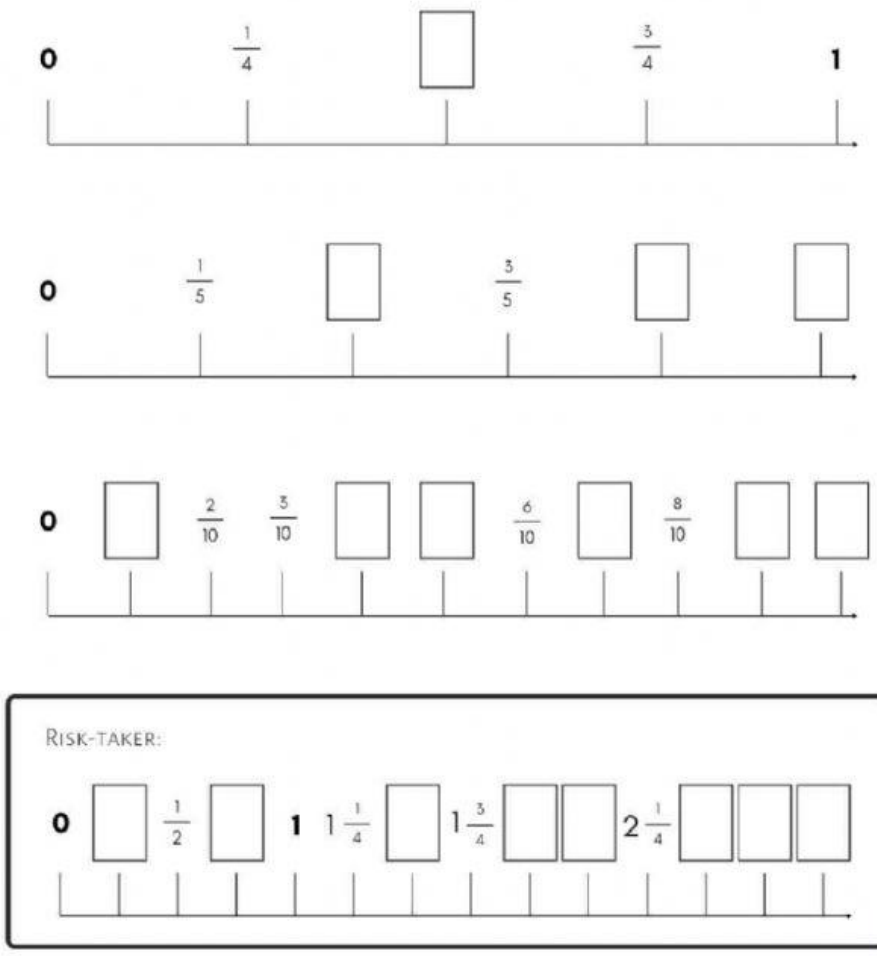

LIVEWORKSHEETS

Aktivitas 8

Buatlah Rangkuman atau catatan dari kegiatan belajar bilangan pecahan!

LIVEWORKSHEETS