GEOMETRİK CİSİMLER VE ŞEKİLLER

Aşağıdaki görsellerden çembere benzeyenleri işaretleyelim.

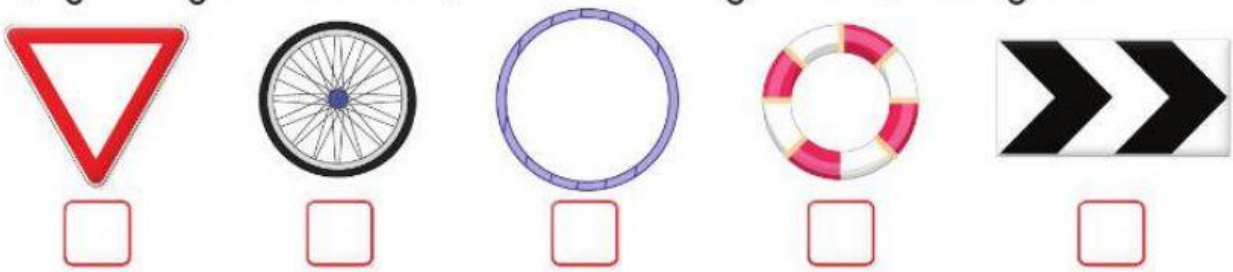

Aşağıdaki görsellerden daireye benzeyenleri işaretleyelim.

Aşağıdaki şekillerden çember olanları işaretleyelim.

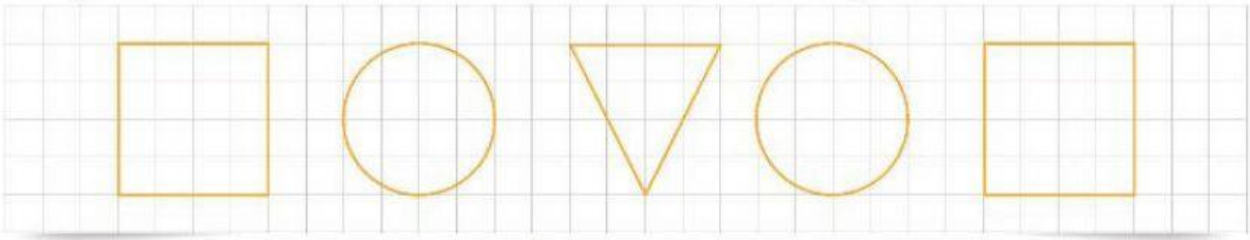

Aşağıdaki geometrik şekillerde okla gösterilen kısımların isimlerini yazalım.

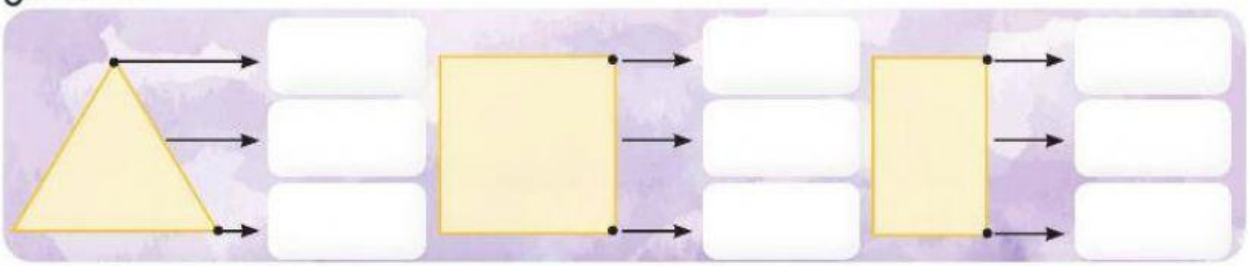

LIVEWORKSHEETS