GENESIS SCHOOL

Họ và tên_____ Lớp_____

PHÉP NHÂN

Bài 1. Đếm theo nhóm. Và hoàn thành các câu dưới đây.

a. Mẫu:

Đếm: 5, 10.

2 nhóm 5 là 10.

b.

Đếm: 2, 4, ...

..... nhóm 2 là .....

c.

Đếm: 3, 6, ...

..... nhóm 3 là .....

d.

Đếm: 6, 12, ...

..... nhóm 6 là .....

Bài 2. Viết phép tính thích hợp và trả lời (theo mẫu).

a. Mẫu:

Có: 2 + 2 = 4.

2 x 2 = 4.

Có tất cả 4 chiếc bánh.

b.

Có: .....

.....

Có tất cả ..... chiếc bánh.

c. 

Có: .....

.....

Có tất cả ..... chiếc bánh.

LIVEWORKSHEETS

Bài 3. Ben mua 5 chai sữa cho mèo, mỗi chai chứa 2 lít sữa.

Hỏi Ben đã mua tất cả bao nhiêu lít sữa?

Bài giải

.....

					(.....)

Đáp số:.....

Bài 4. Viết số thích hợp vào chỗ chấm.



Bài 5 (Thử thách phụ). Bob không muốn đi qua một điểm nào đó nhiều hơn 1 lần.

Hỏi có bao nhiêu đường đi khác nhau đưa Bob đến chỗ cục xương?

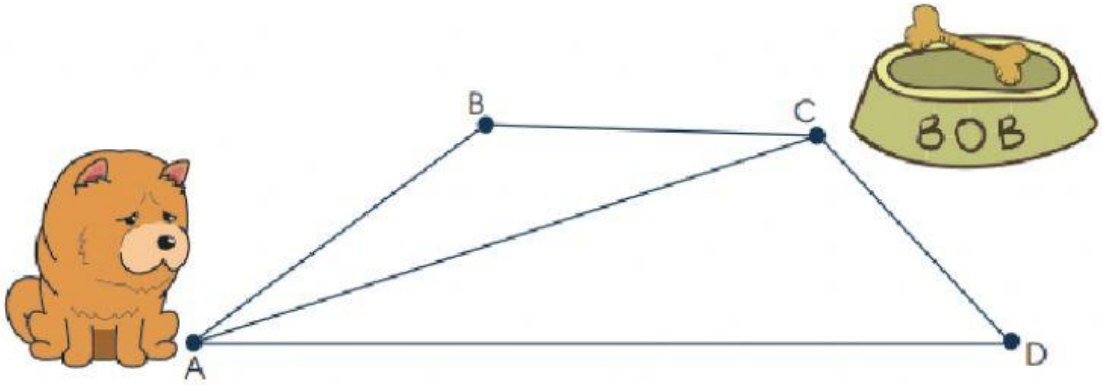

Có: ..... đường đi khác nhau đến chỗ cục xương.

LIVEWORKSHEETS